Centymetr sześcienny. Objętość sześcianu

1. Figurę złożono z jednakowych sześcianików.



Objętości których figur są równe? .....

2. Przedstawiono trzy sześciany.

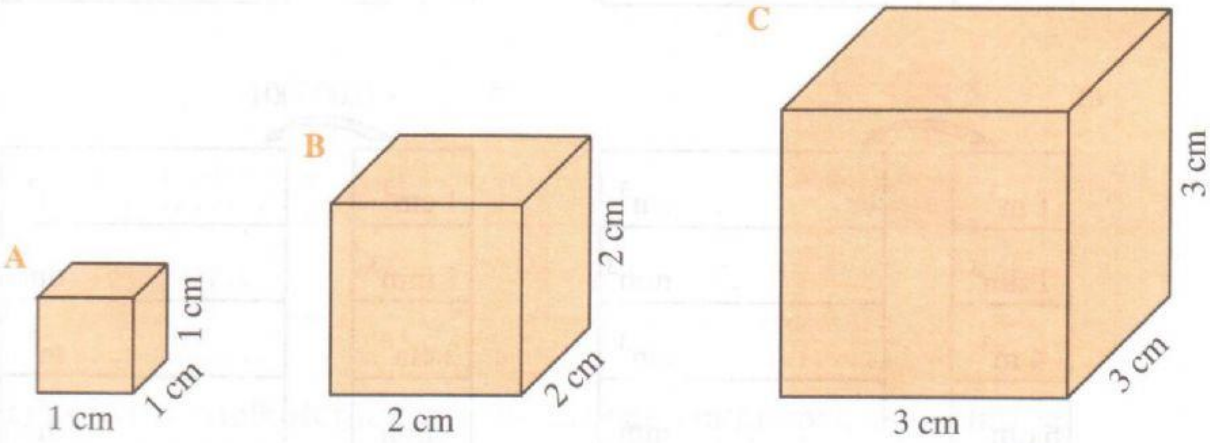

Oblicz objętość:

sześcianu **A**: ..... cm^3,

sześcianu **B**: ..... cm^3,

sześcianu **C**: ..... cm^3.

3. Wiesia wkładała do pudełka jednakowe sześcianiki. Dokończ zdania.

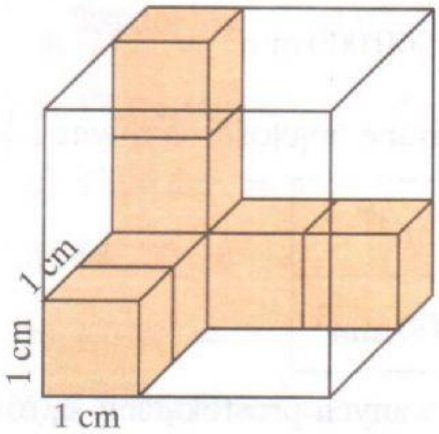

1) Objętość jednego sześcianika wynosi ..... cm^3.

2) W pudełku jest ..... sześcianików.

3) Objętość pudełka wynosi ..... cm^3.

4) Do pudełka jeszcze można włożyć ..... sześcianików.

LIVEWORKSHEETS