3. *En el triángulo determinar:*

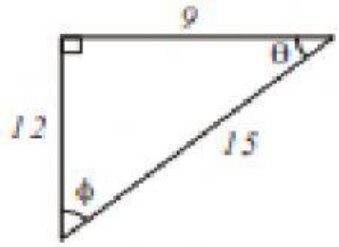

Para θ:

Hipotenusa = _____

Cateto Opuesto = _____

Cateto Adyacente = _____

Para ϕ:

Hipotenusa = _____

Cateto Opuesto = _____

Cateto Adyacente = _____

4. *En el triángulo determinar:*

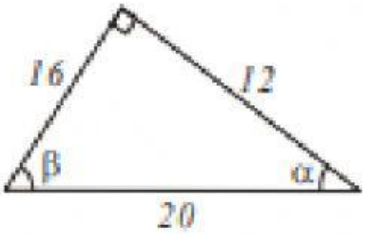

Para α:

Hipotenusa = _____

Cateto Opuesto = _____

Cateto Adyacente = _____

Para β:

Hipotenusa = _____

Cateto Opuesto = _____

Cateto Adyacente = _____

5. *En el triángulo determinar:*

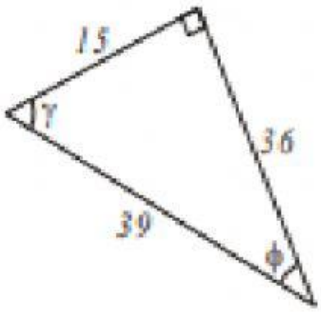

Para γ:

Hipotenusa = _____

Cateto Opuesto = _____

Cateto Adyacente = _____

Para ϕ:

Hipotenusa = _____

Cateto Opuesto = _____

Cateto Adyacente = _____

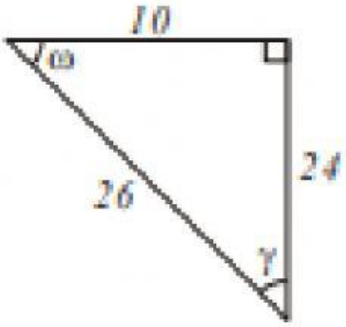

Para ω:

Hipotenusa = _____

Cateto Opuesto = _____

Cateto Adyacente = _____

Para γ:

Hipotenusa = _____

Cateto Opuesto = _____

Cateto Adyacente = _____

LIVEWORKSHEETS