POLÍGONOS

1. Observa este polígono y escribe las palabras *lado, vértice* y *ángulo* donde corresponda.

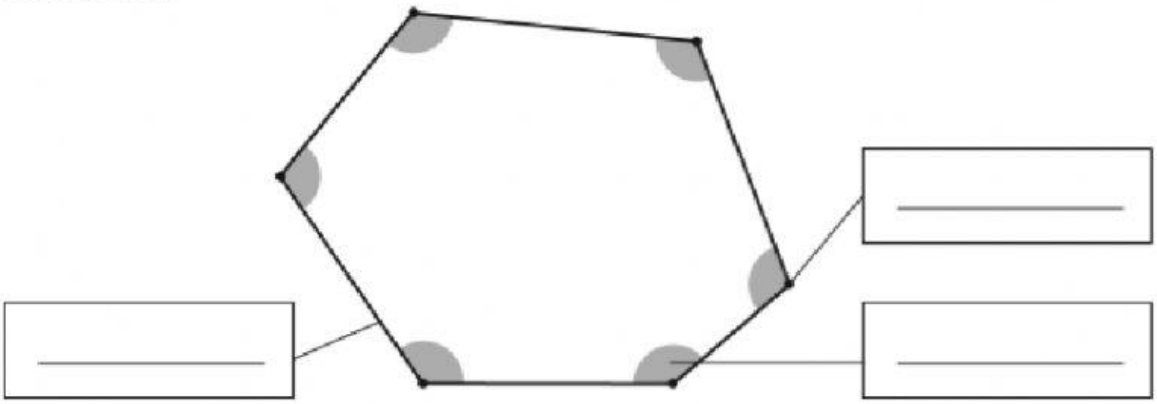

2. Observa los polígonos y completa la tabla.

	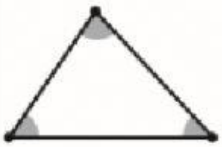			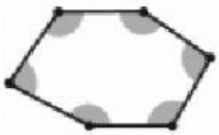
Número de lados				
Número de vértices				
Número de ángulos				
Nombre				

LIVEWORKSHEETS