Nama :

Kelas :

Drag & Drop

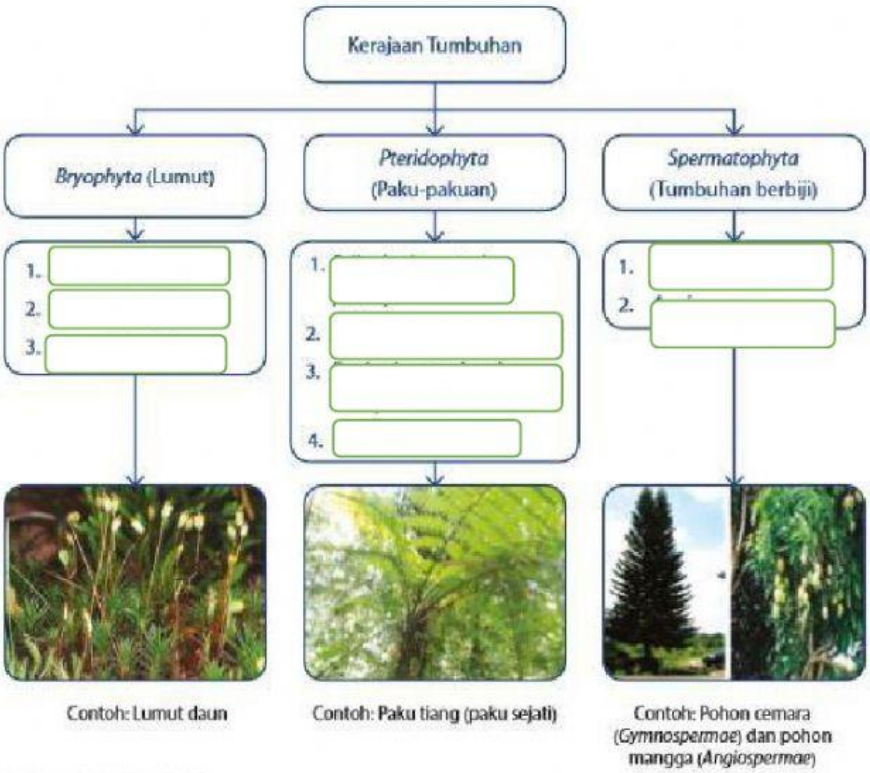

Sumber: Dok. Kemdikbud
Gambar. 2.30 Skema pengelompokan tumbuhan

Lumut Hati | Paku Kawat | Paku purba | Angiospremae

Lumut Daun | Gymnospermae | Lumut tanduk | Paku sejati | Paku ekor kuda

Silakan dicentang benar (v) jika pernyataannya benar dan centang salah (v) jika pernyataan salah

Tumbuhan Paku dan Lumut	BENAR	SALAH
Memiliki spora		
Berkembang biak secara generatif saja		
Memiliki klorofil		
Tidak dapat berfotosintesis		
Habitatnya ditempat lembab		

LIVEWORKSHEETS

Tabel 2.6 Perbedaan tumbuhan lumut, paku, dan mangga

Pengamatan	Lumut	Paku	Mangga
Akar			
Batang			
Daun			
Bunga			
Buah			
Biji			
Habitat			

Tumbuhan yang tidak dapat dibedakan antara akar, batang dan daun disebut tumbuhan

.....

Contoh tumbuhan yang termasuk kelompok tumbuhan tidak berpembuluh adalah tumbuhan

.....

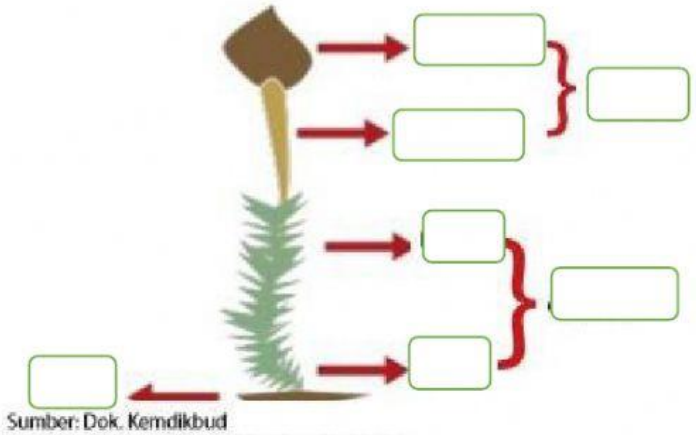

Sumber: Dok. Kemdikbud
Gambar 2.32 Lumut beserta bagian-bagiannya

sporogonium | sporofit | daun | rizoid

tangkai | gametofit | batang

LIVEWORKSHEETS

Tumbuhan yang dapat dibedakan antara akar, batang dan daun disebut tumbuhan

.....

Tumbuhan berpembuluh disebut tumbuhan .....

Jodohkanlah

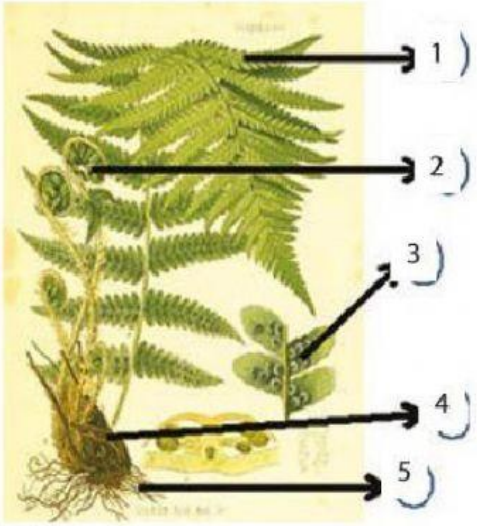

Sumber : blog.uad.ac.id
Gambar 2.33 Bagian-bagian tubuh pada tumbuhan paku

- **Sporangium**
- **Batang**
- **Daun**
- **Akar**
- **Daun Menggulung**

Tabel 2.7 Ciri-ciri tumbuhan berbiji terbuka dan berbiji tertutup

No	Nama Tumbuhan	Akar	Batang	Daun	Bunga	Biji	Kelompok Tumbuhan
1.	Melinjo						
2.	Pakis haji						
3.	Jeruk						
4.	Terung						
5.	Tebu						
6.	Pandan						
7.	Lengkeng						

LIVEWORKSHEETS

Membedakan Tumbuhan Dikotil dan Monokotil

- **Ciri-ciri**

Tabel 2.8 Ciri-ciri tumbuhan monokotil dan dikotil

No.	Nama Tumbuhan	Akar	Batang	Daun	Bunga	Keping Biji	Kelompok
1.	Mangga						
2.	Jagung						
3.	Petai						
4.	Kelapa						
5.	Jambu Biji						

Dicentang yang menurutmu benar !

Tumbuhan	Dikotil	Monokotil
Tebu		
Cabai		
Pisang		
Bunga matahari		
Pisang		

LIVEWORKSHEETS