اسم الطالب :.....

الصف والشعبة: ..... ( )

اليوم والتاريخ: .....

مدرسة أبو تمام الحلقة الثانية والتعليم الثانوي بنين

عنوان الدرس : **الأوعية الدموية**

أولًا : عزيزي الطالب : أكمل الجدول التالي باختيار الإجابة الصحيحة : بالسحب والإفلات

وجه المقارنة	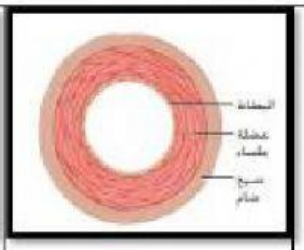	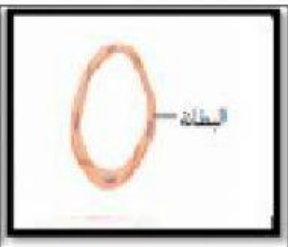	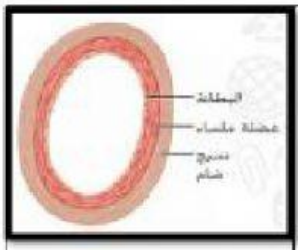
اسم الوعاء			
السمك			
الوظيفة			
نوع الدم فيه			

شريان

وريد

شعيرة دموية

نقل الدم المؤكسج من القلب الى الجسم

نقل الدم غير المؤكسج من الجسم الى القلب

التبادل الغازي على مستوى الانسجة

اكثر سماكة

اقل سماكة

سمك جدرانها خلية واحدة

مؤكسج عادة

غير مؤكسج

LIVEWORKSHEETS