RAPPRESENTIAMO IL TERRITORIO

Leggi con attenzione e scegli la risposta giusta:

I _____ e i _____ disegnano i territori utilizzando strumenti come _____ scattate da un aereo o da un _____. In queste rappresentazioni della superficie terrestre il territorio è visto dall'alto e rimpicciolito, cioè _____ in _____. Tali rappresentazioni si chiamano _____ _____.

Ci sono diversi tipi di carte: _____ e _____ per rappresentare territori poco estesi (paesi, boschi etc.) e hanno molti particolari,

Questa foto di Autore sconosciuto è concesso in licenza da CC BY-NC-ND

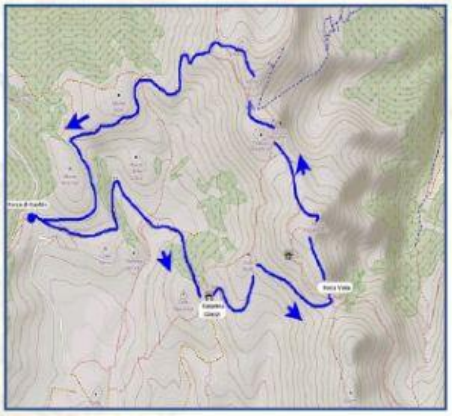

Questa foto di Autore sconosciuto è concesso in licenza da CC BY-NC-ND

le _____ _____,

che rappresentano una zona più vasta (per esempio una città),

LIVEWORKSHEETS

le carte _____, che rappresentano territori molto ampi (per esempio l'Italia, l'Europa),

Questa foto di Autore sconosciuto è concesso in licenza da CC BY-NC-ND

i _____ e il _____, che rappresentano tutta la Terra.

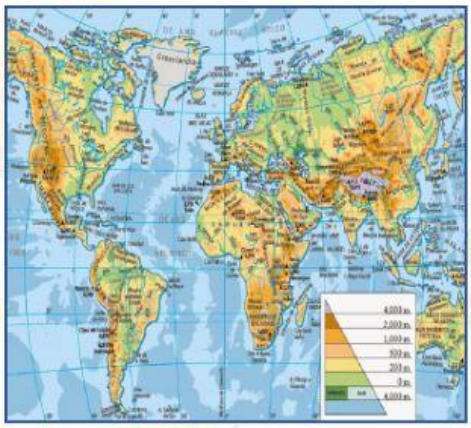

Questa foto di Autore sconosciuto è concesso in licenza da CC BY-SA-NC

Questa foto di Autore sconosciuto è concesso in licenza da CC BY-SA-NC

Sulle carte sono riportati solo gli elementi più importanti, che vengono indicati con simboli spiegati nella _____. Ecco alcuni esempi:

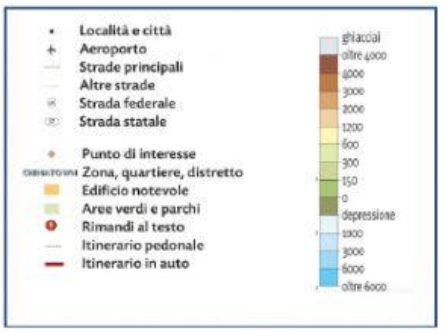

Filigrana: Foto di Pete Linforth da Pixabay

LIVEWORKSHEETS