EUROAK ETA ZENTIMOAK

1. **Prezio hauek zenbateko bera adierazten dute, baina bate ez dago ohiko moduan idatzita. Zein da?Arrazoitu.**



2. **Hiru ikasleetatik zeinek dauka diru gehien?**

3. **Endikak zorrozkailua erosi, eta euro bateko txanponarekin ordaindu du. Zenbat itzuliko diote?**

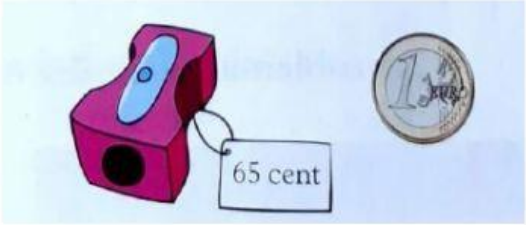
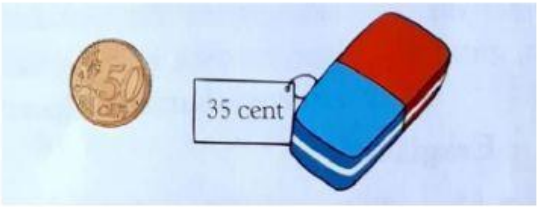
4. **Maitek 50 zentimoko txanpona eman du borragoma erosteko. Zenbat modutan eman ahal dizkiote atzerakoak?**