SOAL SUMATIF 1
MATA PELAJARAN

Nama :
Kelas :
No Absen :

Peunjuk : ***Soal terdiri dari soal pilihan ganda,isian singkat,pilihan ganda majemuk (lebih dari satu jawaban) dan soal betul salah***

1. Sudut adalah.....
2. Perhatikan gambar berikut:

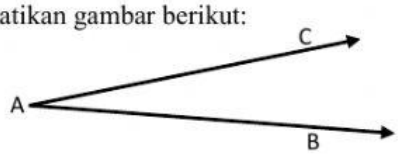

Sinar garis AB disebut....

A. Garis pangkal
B. Titik pangkal
C.Daerah sudut
D.Kaki sudut

3. Perhatikan gambar berikut:

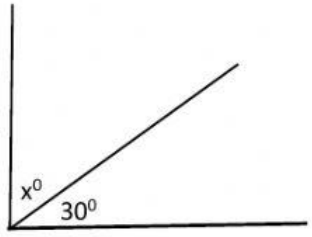

Nilai x adalah.....

A. 30
B. 45
C. 60
D. 90

4. Besar sudut yang dibentuk oleh jarum jam yang menunjukkan pukul 06.30 pada jam dinding adalah.....

A. 90^0
B. 60^0
C.180^0
D.270^0

5. Jenis-jenis sudut adalah.....

A. Sudut lancip
B. Sudut tumpul
C.Sudut lurus
D.sudut behadapan

6. Perhatikan gambar berikut:

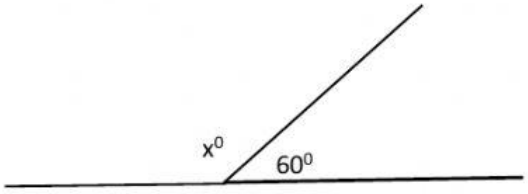

Nilai x adalah.....

C. 30
D. 60
C. 120
D. 270

7. Sudut bertolak belakang yang sama besar....

A

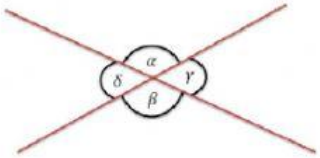

B

LIVEWORKSHEETS

8. Perhatikan gambar berikut:



kedudukan dua garis di atas adalah ...

A	berpotongan tegak lurus	B	sejajar
C	berpotongan	D	berimpit

9. Dari gambar berikut:

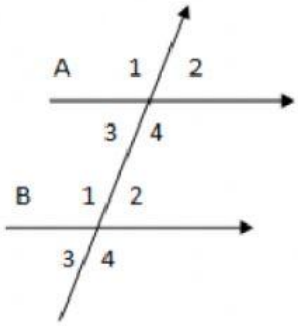

Sudut -sudut yang memiliki hubungan luar berseberangan

A. .....

B. .....

10. Sudut yang besarnya kurang dari 90 derajat dinamakan sudut....

A	lancip	B	lurus
C	siku-siku	D	tumpul

11. Perhatikan gambar berikut: Sudut ABC dinamakan sudut...

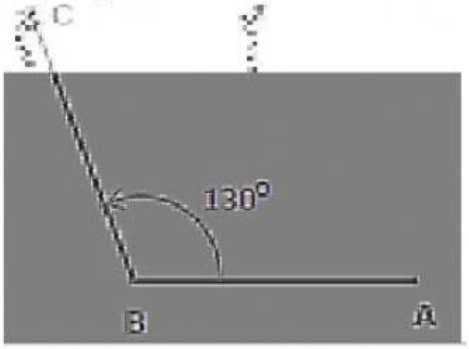

LIVEWORKSHEETS

A lancip

B lurus

C siku-siku

D tumpul

12. Perhatikan gambar berikut:

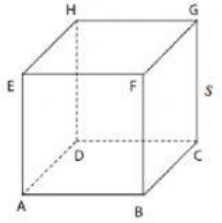

Sebutkan minimal 4 pasangan ruas garis yang Kedudukan garisnya saling berpotongan!

1. ..... 3 .....
2. ..... 4 .....

13. Satuan sudut yang biasa digunakan untuk mengukur besar daerahsudut adalah ....

A Derajat, Menit, Detik

B Derajat, Menit, Meter

C Derajat, Meter, Desimeter

D Derajat, Meter, Detik

14. Perhatikan gambar rel KA berikut:

Rel kereta merupakan contoh dua garis yang saling ....

A berhimpit

B sejajar

C berpotongan

D bersilangan

LIVEWORKSHEETS

15. Berapa jumlah sudut tumpul yang ada pada gambar berikut?

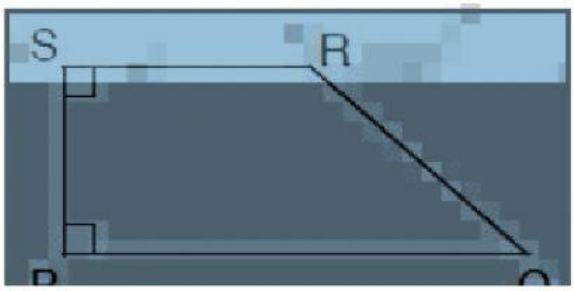

Jawab:

16. Sudut setengah putaran besarnya..... derajat
17. Perhatikan gambar berikut:

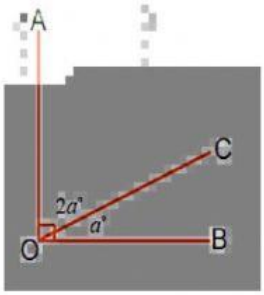

nilai *a* adalah ...

A	45°	B	90°
C	30°	D	60°

18. Perhatikan gambar:

19. Perhatikan gambar:

Sudut terkecil yang dibentuk jarum jampada pukul 08.00 wib adalah....

A	120°	B	135°
C	150°	D	60°

20. Perhatikan gambar:

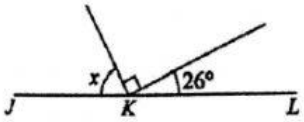

Dalam rajah di bawah, JKL ialah garis lurus. nilai x adalah

A	D. 116°	B	B. 66°
C	C. 74°	D	A. 64°

LIVEWORKSHEETS