UNIDAD EDUCATIVA "INKA SAMANA"

Inecuaciones

Desarrollado por: Joel Japón

1. ELIGE LA RESPUESTA CORRECTA.

TIPO DE INTERVALO

- [4; 7)

a) Intervalo abierto
b) Intervalo cerrado
c) Intervalo semi abierto

- [9;5]

a) Intervalo abierto
b) Intervalo cerrado
c) Intervalo semi abierto

2. UNE CON LÍNEAS LA RESPUESTA CORRECTA.

$\{x / a < x < b\}$

$\{x / a < x \leq b\}$

$\{x / a \leq x < b\}$

$\{x / a \leq x \leq b\}$



LIVEWORKSHEETS

3. RESUELVE LAS SIGUIENTES INECUACIONES.

- $-3x \leq 3-x \leq 5x + 2 =$
- $1/3 < -x -5/6 < 2/3\ x + 4 =$
- $84x + 8 > 96 - 3x =$

4. ¿QUÉ INTERVALOS SON LOS REPRESENTADOS? SELECCIONA Y ARRÁSTRALOS DONDE CORRESPONDA.

[-1;4]

]-1;4]

]-1;4[

[-1;4[

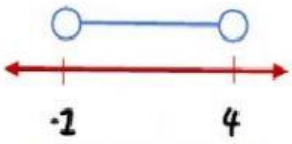

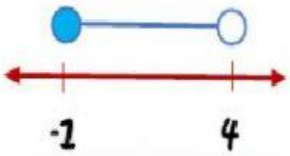

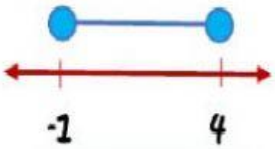

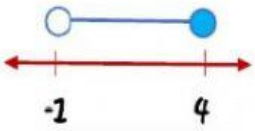

.

LIVEWORKSHEETS