المملكة العربية السعودية
وزارة التربية والتعليم

5

اوراق عمل رياضيات ١-٢

اسم الطالب : .....

الشعبة : .....

السؤال الأول : اكمل ما يلي :

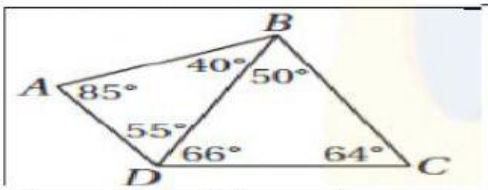

١- ما أطول قطعة مستقيمة في المثلث المجاور

$\overline{BD}$	$\overline{BA}$	$\overline{BC}$	$\overline{CD}$

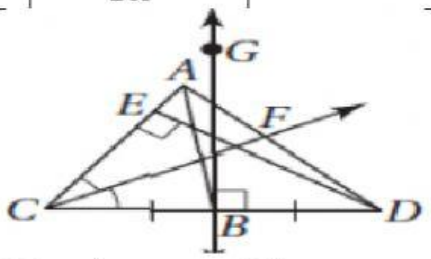

٢- من الشكل سمِّ عمودا منصفاً

$\overline{DE}$	$\overline{AB}$	$\overline{GB}$	$\overline{CF}$

٣- من الشكل سمِّ ارتفاع

$\overline{DE}$	$\overline{AB}$	$\overline{GB}$	$\overline{CF}$

٤- من الشكل سمِّ منصف الزاوية

$\overline{DE}$	$\overline{AB}$	$\overline{GB}$	$\overline{CF}$

٥- من الشكل سمِّ قطعة متوسطة

$\overline{DE}$	$\overline{AB}$	$\overline{GB}$	$\overline{CF}$

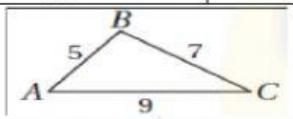

٦- ما الزاوية التي لها اكبر قياس في المثلث المجاور

$\angle A$	$\angle B$	$\angle C$	لا يمكن معرفتها

٧- إذا كانت النقطة Q مركز ΔABC , BE=9 فإن .....=BQ

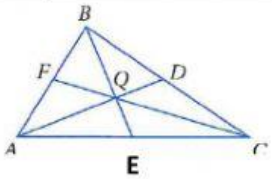

9	6	4.5	18

٨- اذا كان QC=10 فإن..... =FQ

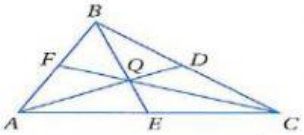

١٥	١٠	٥	٣

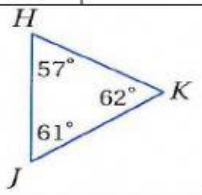

٩- من الشكل ترتيب أضلاع المثلث HKJ من الأصغر للأكبر هو .....

$\overline{HK} < \overline{KJ} < \overline{JH}$	$\overline{HK} < \overline{JH} < \overline{KJ}$	$\overline{JH} < \overline{KJ} < \overline{HK}$	$\overline{JK} < \overline{HK} < \overline{JH}$

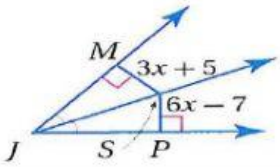

١٠-

X=3	X=4	X=12	X=15

LIVEWORKSHEETS