ВСПОМИНАЕМ ЧТО ЗНАЕМ

+ счет

START

СОЕДИНИ ФИГУРЫ И ФОРМУЛЫ



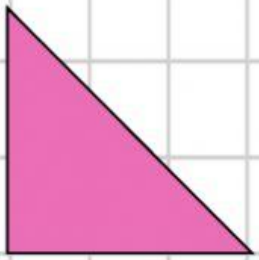

S= a*a

P= a+b+c

S= a*b

КАК НАХОДИТСЯ ОБЪЕМ КУБА?

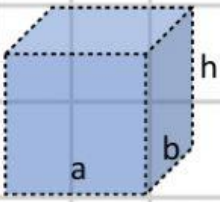

V=(a+b) *2

V=(a+b) *3

V=a*b*h

V=a+b+h

LIVEWORKSHEETS

III РЕШИ ZАДАЧУ

АВТОМОБИЛЬ ЕДЕТ СО СКОРОСТЬЮ РАВНОЙ ЧИСЛУ МИНУТ ТРЕХ ШКОЛЬНЫХ УРОКОВ. КАКОЕ РАССТОЯНИЕ ПРОЕДЕТ АВТО С ТАКОЙ СКОРОСТЬЮ ЗА 2 ЧАСА?

600-300

720-460

4*4*10+80

50*4+30

1к - 860

IV УСТНЫЙ СЧЕТ

22*11=	163+47=	345+345=
30*11=	128+28=	100-17=
29*10=	199-101=	71*11=

ЗА НАКЛЕЙКУ

В лицее 2500 человек. В среднем в каждом классе по 30 человек. Сколько классов примерно всего в лицее? Ответ записать в тетрадь

Автор: Назаров В.С.

LIVEWORKSHEETS