Завдання 1

Впишіть значення елементів масиву, сформованого в такий спосіб

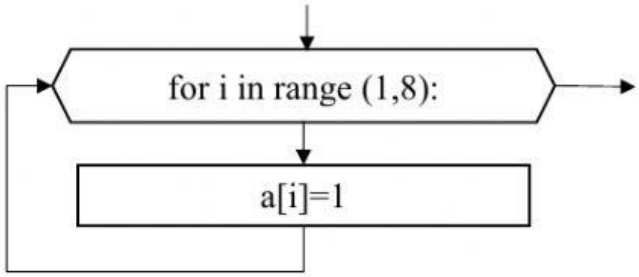

i	1	2	3	4	5	6	7
a[i]							

Завдання 2

Впишіть значення елементів масиву, сформованого в такий спосіб

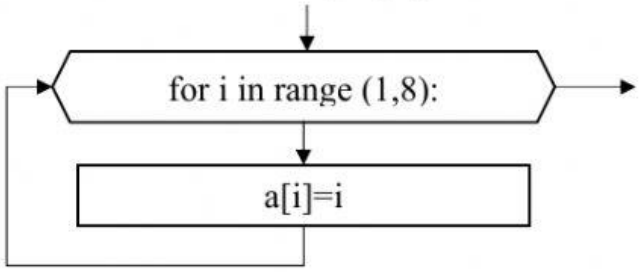

i	1	2	3	4	5	6	7
a[i]							

Завдання 3

Впишіть значення елементів масиву, обчислені так

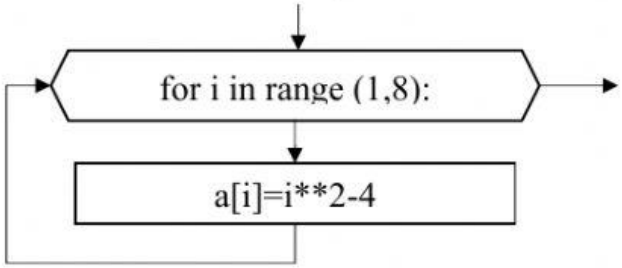

i	1	2	3	4	5	6	7
a[i]							

LIVEWORKSHEETS

Завдання 4

Впишіть значення елементів масиву, сформованого наступним чином: a=[3,4,-1,5,0,10,-12]

i	1	2	3	4	5	6	7
a[i]							

Завдання 5

Впишіть значення елементів масиву, обчислені так

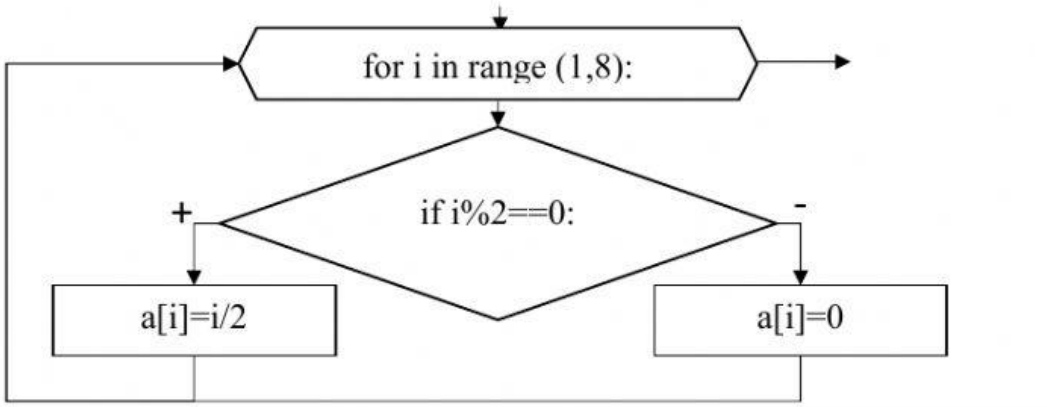

i	1	2	3	4	5	6	7
a[i]							

Завдання 6

Відомі значення цілочисельного масиву a.

i	1	2	3	4	5	6	7	8
a[i]	2	-1	0	8	-5	10	4	-3

Зазначте значення другого параметру функції

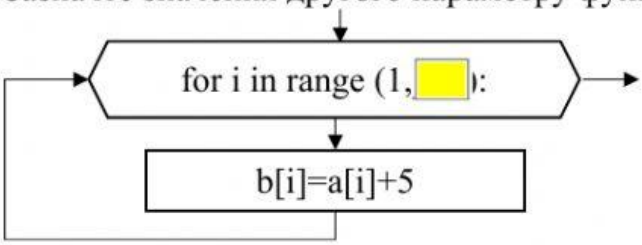

Впишіть значення елементів масиву b, сформованого вказаним чином

i	1	2	3	4	5	6	7	8
b[i]								

LIVEWORKSHEETS

Завдання 7

Яке значення буде виведене на екран після роботи з масивом а, обчисленим в зазначений спосіб?

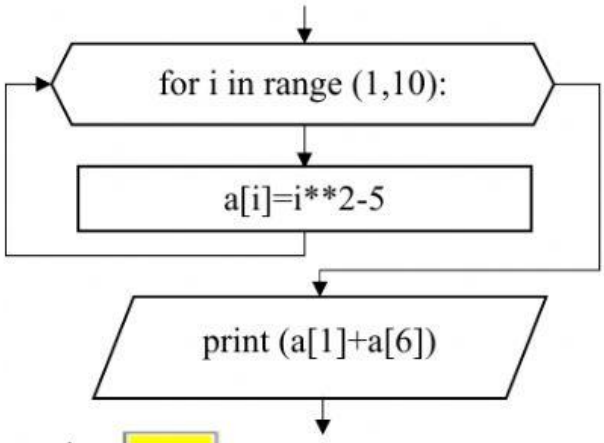

Відповідь:

Завдання 8

Відомі значення елементів масиву а. Чому дорівнює значення a[a[1]]?

i	1	2	3	4	5
a[i]	4	1	-5	7	2

Відповідь:

Завдання 9

Яке значення буде виведене на екран після роботи з масивом а за наведеним алгоритмом?

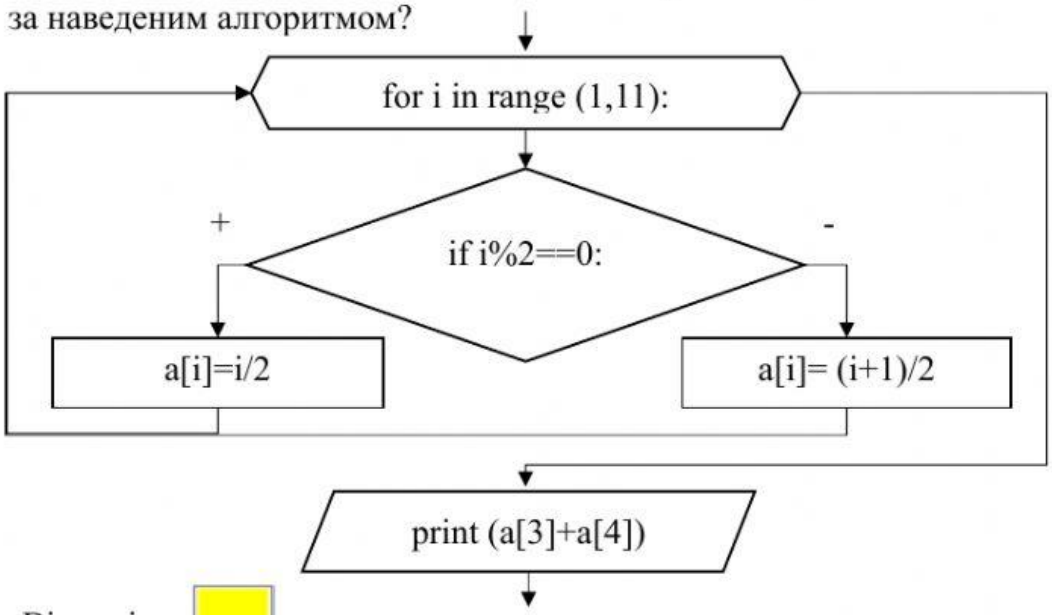

Відповідь:

LIVEWORKSHEETS