Поняття дробу. Порівняння дробів.

Запишіть дробом у зошит, яку частину фігури зафарбовано.

а.

$\frac{\square}{\square}$

б.

$\frac{\square}{\square}$

в.

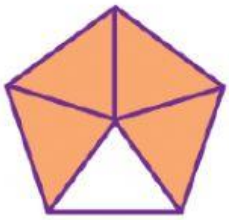

$\frac{\square}{\square}$

г.

$\frac{\square}{\square}$

д.

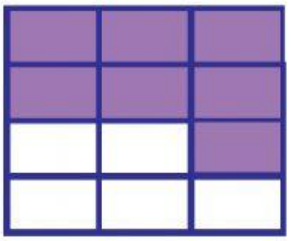

$\frac{\square}{\square}$

е.



$\frac{\square}{\square}$

Порівняйте дроби:

$\frac{7}{33}$ ☐ $\frac{13}{33}$

$\frac{11}{12}$ ☐ $\frac{9}{12}$

$\frac{21}{45}$ ☐ $\frac{31}{45}$

$\frac{998}{1000}$ ☐ $\frac{995}{1000}$

Впорядкуйте дроби за спаданням.

$\frac{3}{10}$ $\frac{5}{10}$ $\frac{9}{10}$ $\frac{8}{10}$



LIVEWORKSHEETS

Заповніть пропуски

0 $\frac{1}{3}$ $\frac{\quad}{3}$ 1

0 $\frac{1}{5}$ ___ $\frac{3}{\quad}$ $\frac{\quad}{5}$ 1

0 $\frac{1}{8}$ ___ ___ $\frac{4}{8}$ $\frac{\quad}{8}$ $\frac{6}{\quad}$ ___ 1

0 ___ $\frac{2}{4}$ ___ 1

0 ___ $\frac{2}{6}$ ___ $\frac{4}{\quad}$ ___ 1

LIVEWORKSHEETS