Ôn Toán HK I - 5

Câu 1. Viết sơ đồ tách - gộp và phép tính thích hợp:

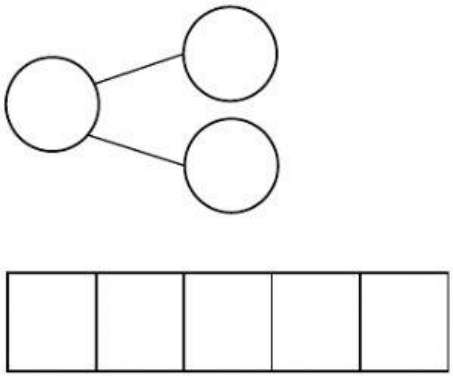



Câu 2. Số?

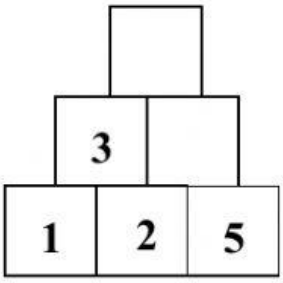

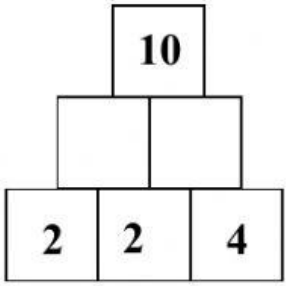

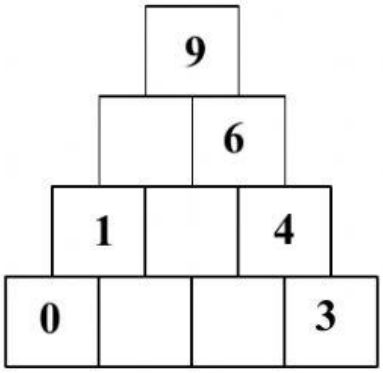

Câu 3. Chọn chữ cái trước câu trả lời đúng nhất:

a) 8 + 2 - 6 = …. Số thích hợp điền vào chỗ chấm là:

A. 3 B. 4 C. 5

b) 4 - 4 + … > 7 Số thích hợp điền vào chỗ chấm là:

A. 6 B. 7 C. 8

c) Hình vẽ tiếp vào ô trống là:

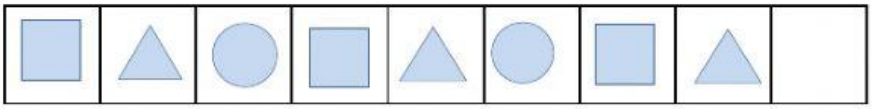

A. B. C.

LIVEWORKSHEETS

LIVEWORKSHEETS