NÚMEROS DECIMALES

1. ¿Qué número decimal corresponde a cada fracción?

   . $\frac{5}{10}=$. $\frac{6}{100}=$. $\frac{3}{100}=$

   . $\frac{71}{100}=$. $\frac{54}{10}=$. $\frac{26}{10}=$

2. Expresa en forma de número decimal:

   Ocho décimas→

   Quince centésimas→

   Dos centésimas→

   Tres décimas→

3. ¿Qué número decimal representa cada dibujo?









4. Indica la parte entera y la parte decimal de:

a) 34´2	b) 8´03	c) 0´4
Parte entera:	Parte entera:	Parte Entera:
Parte Decimal:	Parte Decimal:	Parte Decimal:

LIVEWORKSHEETS

5. Completa la tabla:

Número decimal	Lectura
2´7	
6´49	
48´1	
34´25	
	4 unidades 12 centésimas
	22 unidades 3 décimas

6. Mira estos números:

2´4 2´34 3´5 2,15

3´ 74 3´1 2´01 3´6

¿Cuál es el número menor?

¿Cuál es el número mayor?

7. Compara con los signos < ó >:

5´4 3´4 10´7 14´34

4´5 4´9 5´7 5´3

LIVEWORKSHEETS