LEMBAR KERJA PESERTA DIDIK
STATISTIKA

Kelas 8 SMP/MTs






LIVEWORKSHEETS

Latihan Membuat Soal LKPD Live Worksheet

Soal Pilihan Ganda

Terdapat tiga buah bilangan p, q dan r yang telah dipilih sehingga jika setiap bilangan tersebut ditambahkan ke rata-rata dua bilangan lainnya menghasilkan 40, 50, 60. Maka rata-rata dari p, q dan r adalah....

A. 15

B. 25

C. 35

D. 45

Soal isian singkat dan paragraf

Dalam statiska ada nilai yang sering muncul, disebut dengan .....

Sebutkan ciri-ciri statistika.....

Soal Drop Down

Apa nama diagram dibawah ini!



Berat Badan	Jumlah siswa
27	3
28	5
29	5
30	4
31	3

LIVEWORKSHEETS

Soal Check boox

Yang merupakan bagian dari diagram batang adalah:

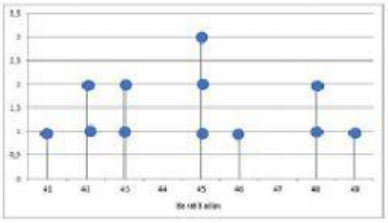

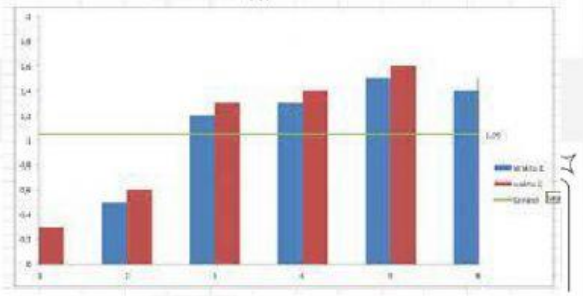

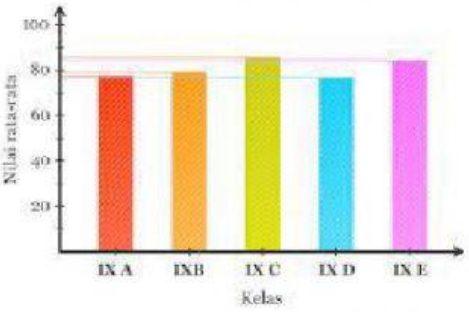



Soal Join Arrow

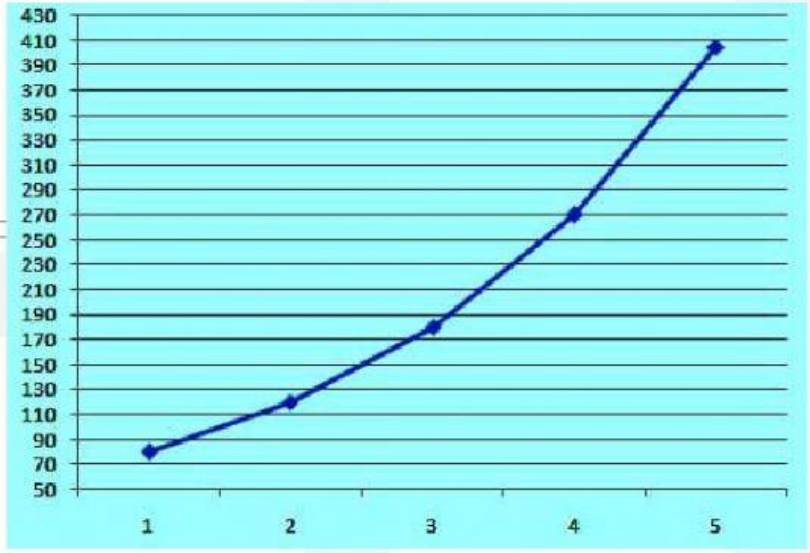

LIVEWORKSHEETS

Diagram di atas menunjukan pada jam 1 ada 80 nilai yang tercapai, dan seterusnya. Temukan juga keterangan-keterangan lain yang dapat kalian peroleh dari diagram di atas. Isilah dengan menjodohkan jawaban di bawah ini!

2

3

4

5

180

420

120

270

410

Soal Drag and Draw

Urutkanlah data berikut dari yang terkecil sampai yang terbesar

8 7 9 15 12

10 13 11 16





LIVEWORKSHEETS

Soal Listening

$$= \frac{Jumlah\ seluruh\ data}{banyaknya\ data}$$

lam bentuk rumus:

$$\text{igal}: \bar{x} = \frac{x_1 + x_2 + x_3 + \ldots + x_n}{n} = \frac{\sum_{i=1}^{n} x_i}{n}$$, n = banyaknya data



Benar

Salah

Benar

Salah

Soal speaking

Berat Badan	Jumlah siswa
27	3
28	5
29	5
30	4
31	3

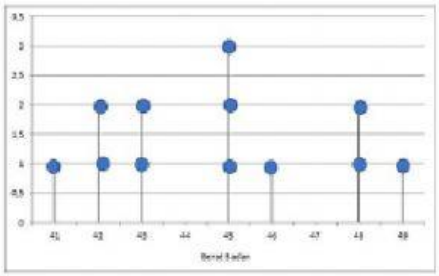

LIVEWORKSHEETS

Soal Word Seacrh

Cari kata: MEDIAN, MODUS, RATA-RATA, MEAN

M	A	K	M	U	R	A	M
A	E	U	I	V	R	J	Y
M	O	D	U	S	M	K	A
B	G	O	I	K	L	A	R
K	I	M	E	A	N	H	M
L	U	C	K	Y	N	B	Y
C	L	O	C	K	E	Y	L
R	A	T	A	R	A	T	A

FINISH!!

LIVEWORKSHEETS

LIVEWORKSHEETS