Lembar Kerja Peserta Didik

Sistem Pernapasan Manusia

Kelas/Semester : V/I
Materi : IPAS

Kompetensi Dasar	Indikator Pencapaian Kompetensi
3.2. Memahami organ pernapasan dan fungsinya pada hewan dan manusia, serta cara memelihara kesehatan organ pernapasan manusia	3.2.1. Menganalisis struktur organ pernapasan pada manusia 3.2.2. Menganalisis fungsi organ pernapasan pada manusia

Nama :
Kelas :

Mengamati

Created by Urmila Umardianti

LIVEWORKSHEETS

Menanya

Setelah mengamati percakapan di atas, sekarang kita mengamati video tentang sistem pernapasan. Setelah itu, anak-anak diarahkan untuk mengisi pertanyaan-pertanyaan yang ingin diajukan pada kolom yang tersedia!

Kotak Pertanyaan

Mencoba

Susunlah puzzle berikut ini dengan benar!

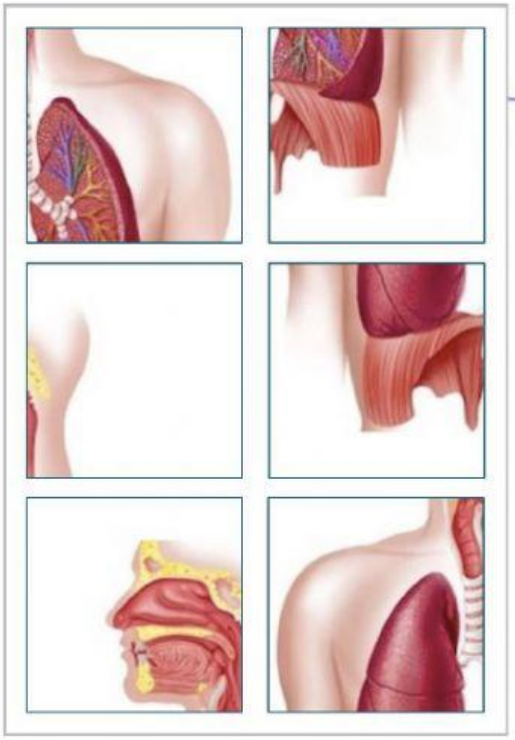

LIVEWORKSHEETS

Menalar

Mengomunikasikan

Pasangkan nama dan gambar organ pernapasan yang tepat dengan menarik garis dari nama organ ke nomor yang sesuai. Misal nomor 1 adalah mata, maka tariklah garis dari mata ke nomor 1.

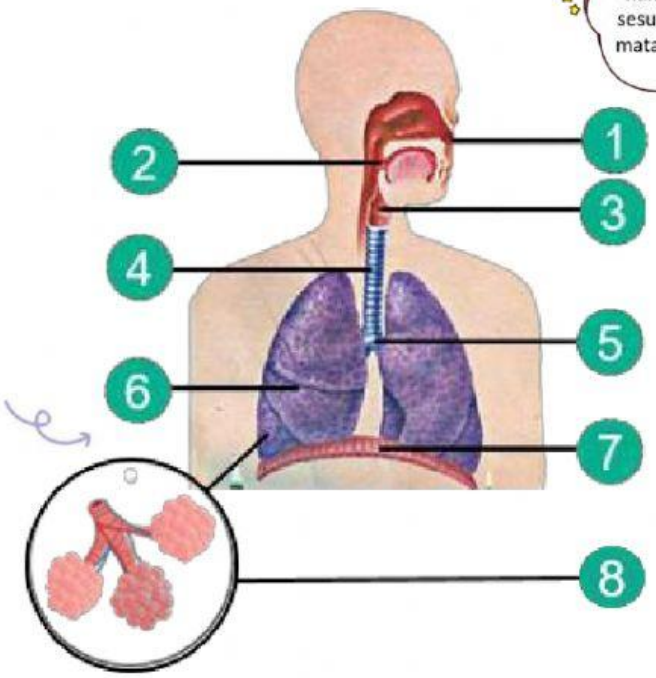

HIDUNG	1
DIAFRAGMA	2
BRONKUS	3
LARING	4
FARING	5
TRAKEA	6
PARU-PARU	7
ALVEOLUS	8

LIVEWORKSHEETS

Menalar

Mengomunikasikan

Urutkanlah organ-organ pernapasan berikut ini dengan menarik dan meletakkan organ pada nomor urutan yang tepat!

Hidung	Alveolus
Bronkus	Laring
Trakea	Bronkiolus
Faring	

Urutkan organ pernapasan manusia dari luar ke dalam

(1) → (2) → (3) → (4) → (5) → (6) → (7)

LIVEWORKSHEETS

Menalar

Mengomunikasikan

1. Persimpangan antara saluran pencernaan dengan saluran pernafasan disebut ....

2. Organ pernapasan berbentuk pipa yang terletak leher disebut ....

3. Struktur berbentuk gelembung-gelembung kecil pada paru-paru yang berfungsi sebagai tempat pertukaran oksigen dan karbondioksida disebut ....

4. Hidung memiliki rambut-rambut halus yang berfungsi untuk ...

5. Pada laring terdapat katup epiglottis yang berfungsi untuk ....

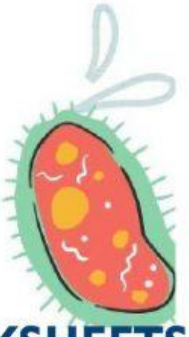

LIVEWORKSHEETS