PHIẾU ÔN TẬP CUỐI TUẦN 13

Mục tiêu

✓ Ôn tập về đơn vị đo độ dài Mi-li-mét
✓ Làm quen các đơn vị đo: gam, mi-li-lít và giải các bài tập liên quan đến đơn vị đo

PHẦN 1. TRẮC NGHIỆM

1. Điền dấu >; <; = thích hợp để thu thập những chiếc khẩu trang nhé.

1kg … 1000g

500g + 900g … 2kg

50g × 6 … 2kg

2. Điền Đ/S để thực hiện quy định 5K nhé!

☐ 60mm : 3 = 2 mm

☐ 35mm + 24mm = 59mm

☐ 100mm + 2cm = 102mm

☐ 3cm + 32mm = 62mm

3. Điền dấu (+; -) thích hợp vào ô trống để kết nối các toa tàu.



4. Kết quả của phép tính 115g + 75g là:

A. 100g B. 190g C. 200kg D. 200g

5. Kết quả của phép tính 100g - 37g là:

A. 53g B. 63kg C. 80g D. 63g

6. Dấu <, >, = thích hợp để điền vào chỗ chấm 300g + 3g … 303g là:

A. < B. = C. >

7. Trên một đĩa cân người ta đặt ba quả cân loại 500g; 200g; 100g. Trên đĩa kia người ta đặt 3 quả lê thì cân thăng bằng. Vậy 3 quả lê đó nặng ☐g

LIVEWORKSHEETS

8. Mỗi gói kẹo cân nặng 150g, mỗi gói bánh cân nặng 200g. Hỏi 3 gói kẹo và 2 gói bánh cân nặng bao nhiêu gam?

A. 800g B. 850g C. 900g D. 950g

9. Viết tiếp vào chỗ chấm:

a. Hai số tự nhiên khác 0 có tổng bằng 3. Hỏi số bé bằng một phần mấy số lớn? *Đáp số:*……..……..

b. Cô Lan có 1kg đường, cô dùng làm bánh hết 400g, số đường còn lại được chia đều vào 3 túi nhỏ. Hỏi mỗi túi nhỏ có bao nhiêu đường?

Đáp số:……..……..

PHẦN 2. TỰ LUẬN

Bài 1

a. Tính:

300 *ml* + 400 *ml* = …….. 500 *ml* – 200 *ml* = ……

7 *ml* x 4 = …… 40 *ml* : 8 = ……

b. Điền dấu (>; <; =) thích hợp vào chỗ chấm:

300 *ml* + 700 *ml* … 1*l* 600 *ml* + 40 *ml* … 1 *l* 1 *l* … 100 *ml* – 10 *ml*

Bài 2. Quan sát và điền số thích hợp vào chỗ chấm:

Hộp sữa cân nặng là: ……

Hai quả táo cân nặng là: ……..……
(Biết mỗi quả táo cân nặng bằng nhau)

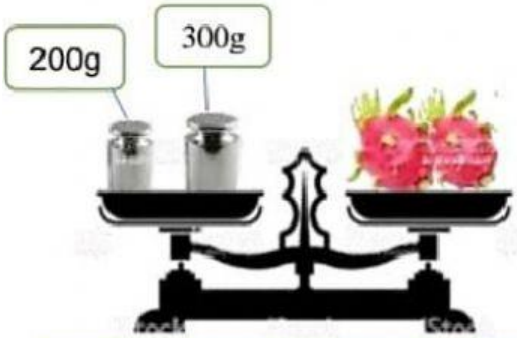

Hai quả thanh long cân nặng : ……

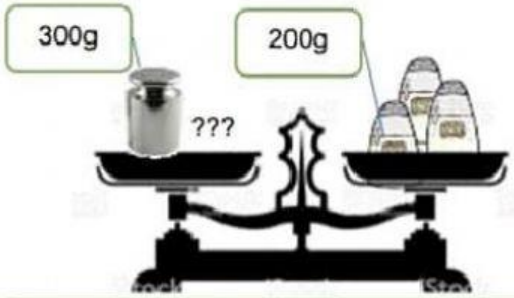

* Mỗi túi muối nặng 200g.
???=…….
Cần ……quả cân, mỗi quả nặng 300g để cân thăng bằng.

LIVEWORKSHEETS

Bài 3. Dùng cân để cân các đồ vật sau:

Chai nước Lavie 500ml cân nặng là:	Quyển SKG toán 3 cân nặng là:	10 quyển vở học sinh cân nặng là:	Cặp đi học của em cân nặng là: .....

Bài 4. Tính

a. 15g + 25g = ... b. 80g – 50g = ... c. 300g × 2 =.....

200g + 300g = ... 600g – 300g = ... 450g × 2 = ...

Bài 5. Một cốc nước ngọt có 250ml, đổ 2 cốcnhư thế vào một cái chai.

a. Chai đó chứa bao nhiêu mi-li-lít nước ngọt?

b. Nếu đổ 4 cốc vào chai thì chai chứa bao nhiêu lít nước ngọt?

Bài 6. Hộp cà phê cân nặng 132g, riêng vỏ hộp cân nặng 12g. Biết mỗi gói cà phê nhỏ ở trong hộp nặng 8g. Hỏi hộp cà phê đó có bao nhiêu gói?

Bài giải

LIVEWORKSHEETS

Bài 7. Bác Hà mua 70 *l* xăng, bác đổ đầy vào các can 9 *l*. Vậy Bác Hà cần ít nhất bao nhiêu can như thế để chứa hết 70 *l* xăng đó.

Bài giải

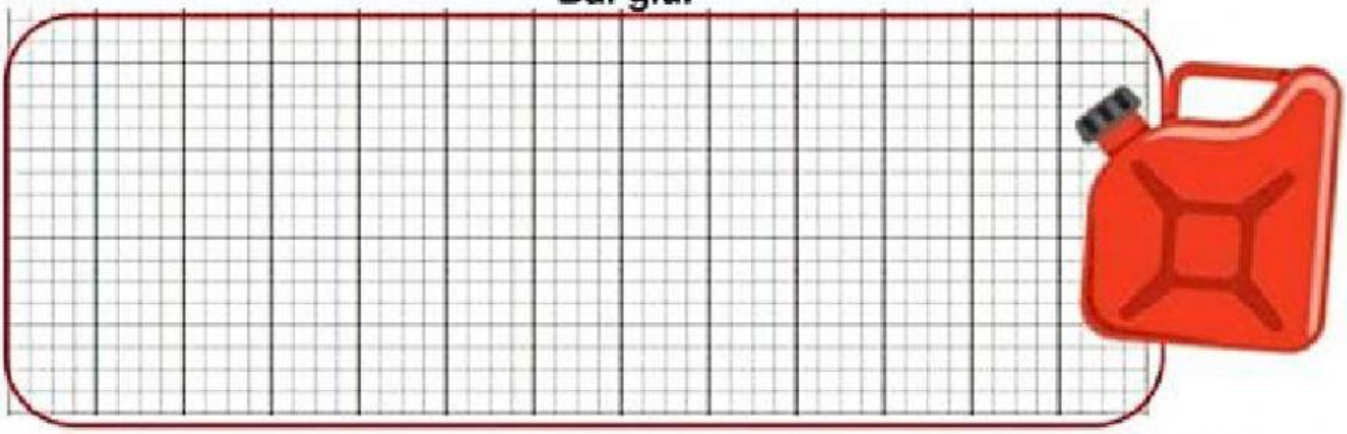

Bài 8. Có 50 *l* dầu, bán đi 10 *l* . Số lít dầu còn lại đong đều vào 8 can. Vậy mỗi can có bao nhiêu *l* dầu.

Bài giải

Bài 9. Mỗi gói kẹo cân nặng 90g, mỗi hộp bánh cân nặng 385g. Hỏi 1 hộp bánh và 3 gói kẹo cân nặng bao nhiêu gam?

Bài giải

LIVEWORKSHEETS