1. **COLLEGA LA FIGURA CON IL NOME.**

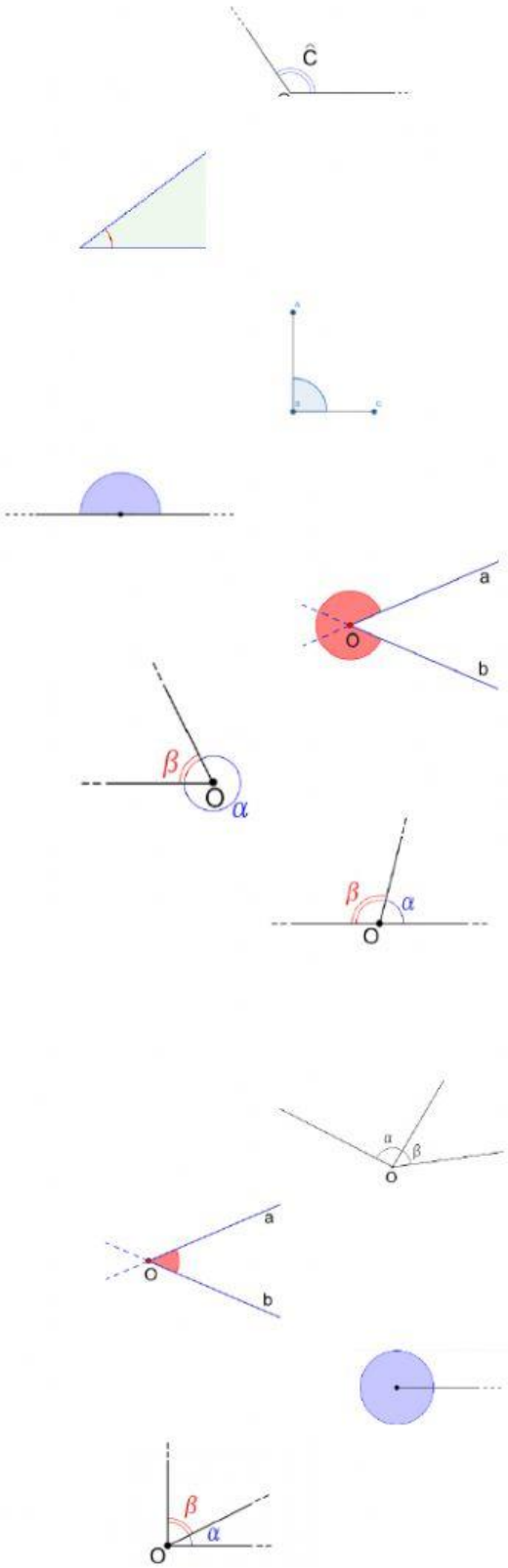

ANGOLO CONCAVO
ANGOLI ESPLEMENTARI
ANGOLO ACUTO
ANGOLO OTTUSO
ANGOLI SUPPLEMENTARI
ANGOLI CONSECUTIVI
ANGOLO PIATTO
ANGOLO CONVESSO
ANGOLO GIRO
ANGOLI COMPLEMENTARI
ANGOLO RETTO

LIVEWORKSHEETS

2. **VERO O FALSO?**
   a. DUE ANGOLI ADIACENTI SONO ANCHE CONSECUTIVI
      VERO
      FALSO
   b. DUE ANGOLI CONSECUTIV SONO SEMPRE ADIACENTI
      VERO
      FALSO
   c. SE DISEGNO UN PUNTO SU UNA RETTA TROVO DUE SEMIRETTE
      VERO
      FALSO
   d. SE DISEGNO DUE PUNTI SU UNA RETTA TROVO UN SEGMENTO E UNA SEMIRETTA
      VERO
      FALSO
   e. LE RETTE SI INDICANO CON UNA LETTERA DELL'ALFABETO GRECO
      VERO
      FALSO
   f. UN ANGOLO SI INDICA CON UNA LETTERA MAIUSCOLA
      VERO
      FALSO
   g. LE SEMIRETTE SI INDICANO CON UNA LETTERA MINUSCOLA
      VERO
      FALSO
   h. UN SEGMENTO E' UNA PARTE DI RETTA CHE STA TRA DUE PUNTI
      VERO
      FALSO
   i. IL PUNTO HA UNA SOLA DIMENSIONE: LA LUNGHEZZA
      VERO
      FALSO
   j. IL PIANO HA TRE DIMENSIONI
      VERO
      FALSO

3. **RISPONDI CORRETTAMENTE.**
   QUALE TRA QUESTI ANGOLI MISURA 135°?

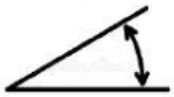

a.

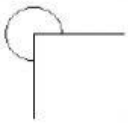

b.

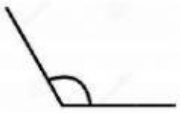

c.

   QUALE TRA QUESTI ANGOLI FORMANO INSIEME DUE ANGOLI SUPPLEMENTARI?

135° + 15°	170° + 10°	30° + 60°
a.	b.	c.

LIVEWORKSHEETS