# REPASO MATEMÁTICAS 2.º

# UNIDAD 3

**1.- Observa la imagen y <u>completa</u> utilizando *<u>pesa más</u>* o *<u>pesa menos</u>*.**



**La caja de cereales ..... que el rollo de papel higiénico, pero..... que la sandía.**

**2.- <u>Arrastra</u> cada fruta <u>al lugar correcto</u> de la balanza.**

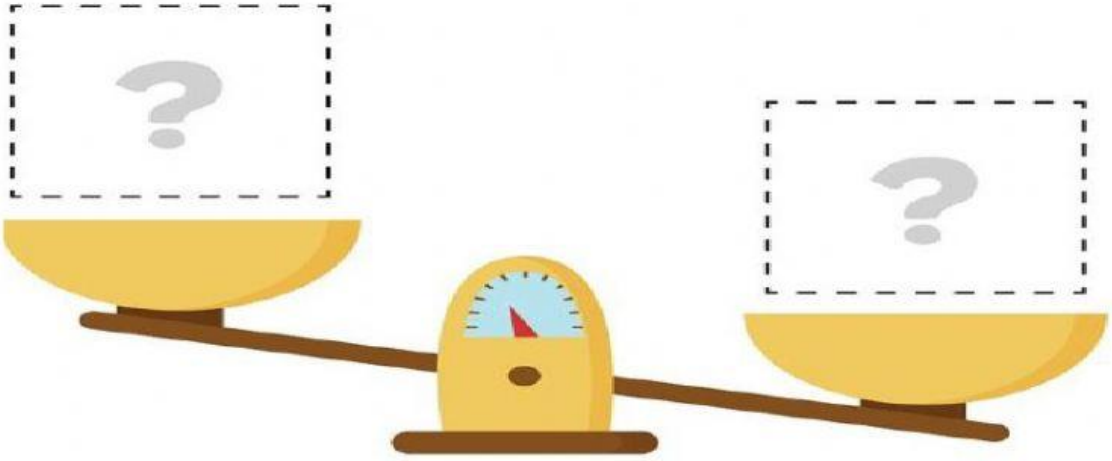



LIVEWORKSHEETS

4.- Une cada figura con su nombre.

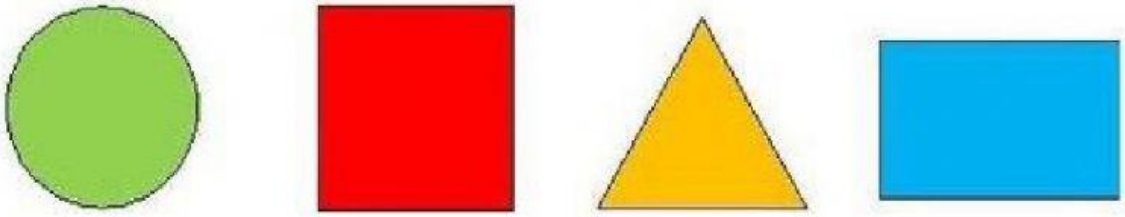

triángulo círculo rectángulo cuadrado

5.- Completa la tabla con las actividades que realizará Aitor la semana que viene. Después, contesta a las preguntas.

-El lunes y el jueves voy a patinaje. El lunes **empiezo** a las cinco y el jueves **termino** a las cinco.

- El martes y el viernes **empiezo** a pintura a las cinco.

- El viernes voy a bailes de 4 a 5.

- El miércoles **empiezo** a natación a las cuatro y **termino** música a las seis.

| HORA | LUNES | MARTES | MIÉRCOLES | JUEVES | VIERNES |
|---|---|---|---|---|---|
| De 4 a 5 | | | | | |
| De 5 a 6 | | | | | |

¿Cuántas horas tiene actividades? .....

¿Qué días va a tener libres de 4 a 5? .....

¿A qué hora empieza música el miércoles? .....

LIVEWORKSHEETS