ชื่อ.....ชั้น ม.3/.....เลขที่.....

แบบฝึกหัด 1.4 เรื่อง เส้นสัมผัสวงกลม

จากวงกลมที่กำหนดจุดศูนย์กลางมาให้ จงหาค่า x° และ y°

ความสัมพันธ์ระหว่างเส้นสัมผัสวงกลมและรัศมี

1.

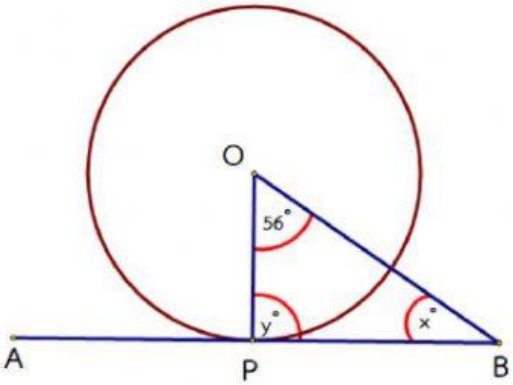

x° = ... องศา

y° = ... องศา

2.

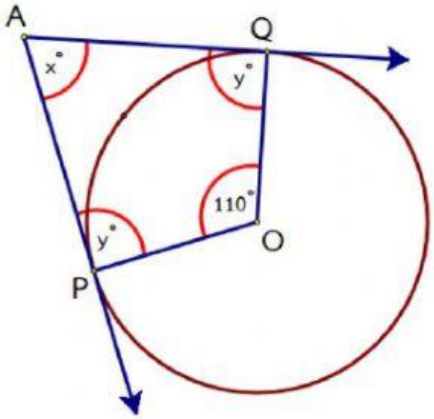

x° = ... องศา

y° = ... องศา

3.

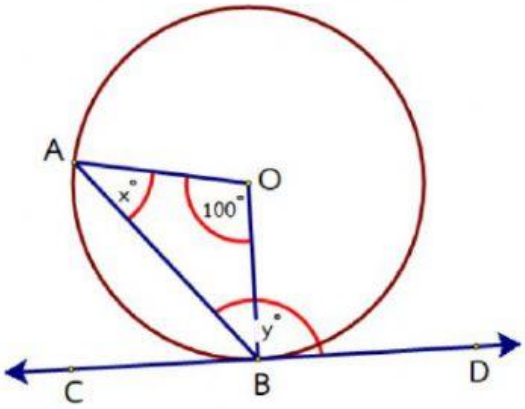

x° = ... องศา

y° = ... องศา

LIVEWORKSHEETS

ความสัมพันธ์ระหว่างเส้นสัมผัสวงกลมและคอร์ดของวงกลม

4.

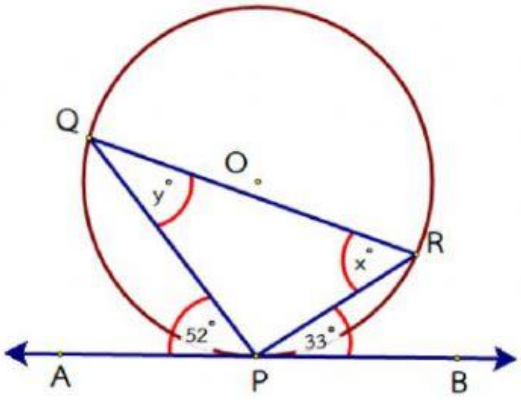

x° = ... องศา

y° = ... องศา

5.

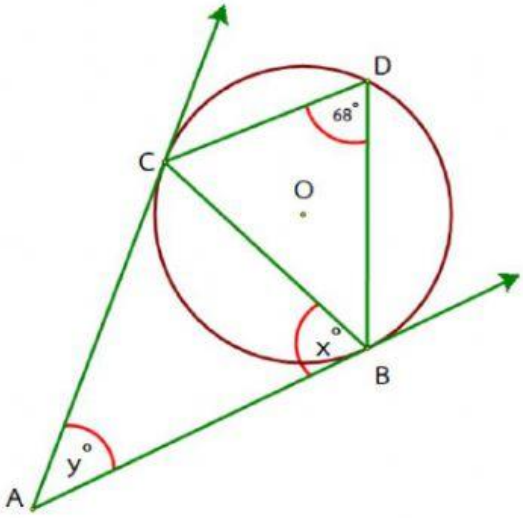

x° = ... องศา

y° = ... องศา

6.

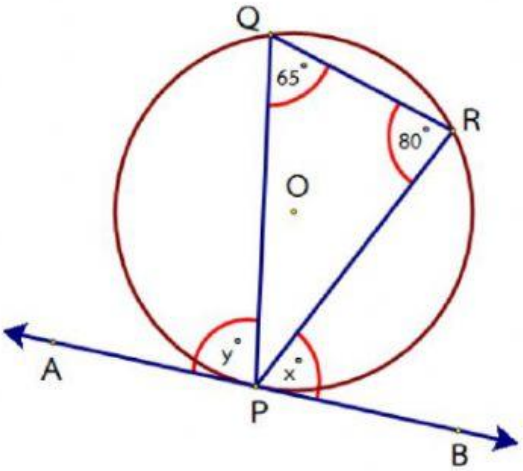

x° = ... องศา

y° = ... องศา

LIVEWORKSHEETS