Одержуємо частини цілого

5. На скільки рівних частин поділена кожна фігура? Познач кожну частину дробом.

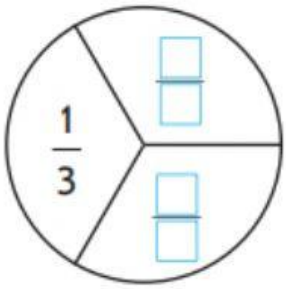

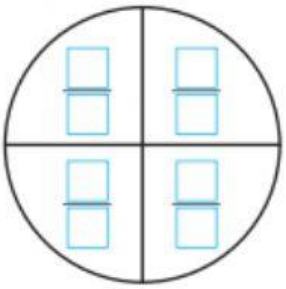

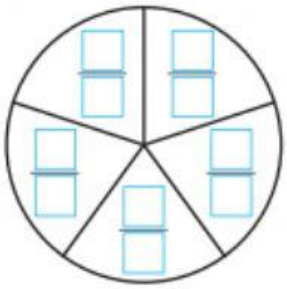

6. Запиши числами відповіді на запитання.

Скільки рівних частин? ☐

Скільки зафарбованих частин? ☐

Яка частина фігури зафарбована? ☐/☐

Скільки рівних частин? ☐

Скільки зафарбованих частин? ☐

Яка частина фігури зафарбована? ☐/☐

LIVEWORKSHEETS