Промінь і пряма.

1) Через одну точку можна провести ____ прямих.

2) Через дві точки можна провести ____ прямих.

3) Якщо точка N ділить пряму AB на два промені NA та NB, то ці промені називаються _____

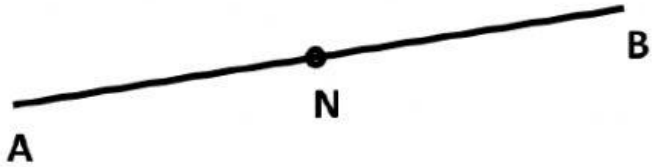

4) Які промені зображені на рисунку? Позначте всі правильні відповіді:

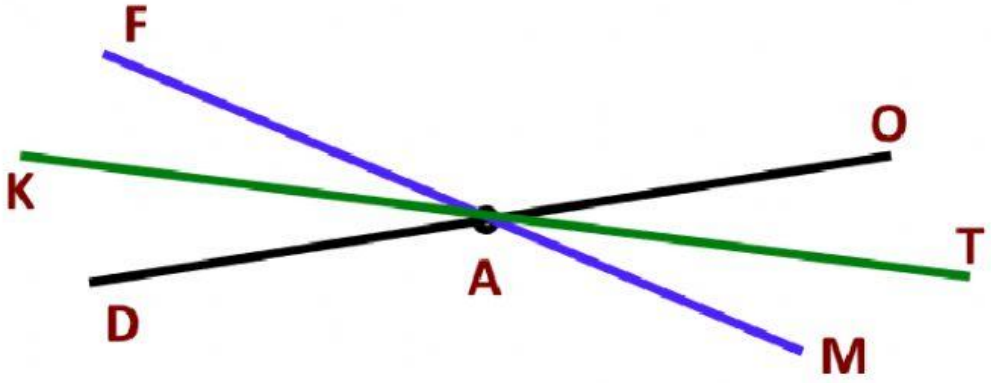

FD	DA	KT
AM	AF	AO
AT	AK	OD
FM	TA	AD

5) На скільки частин ділять площину дві прямі, що перетинаються?

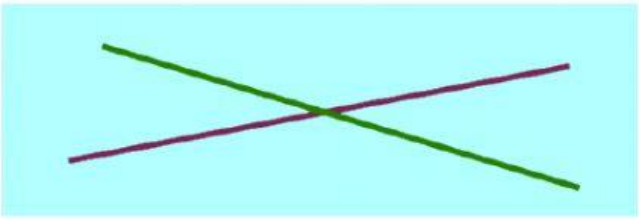

Відповідь: _____ *частин.*

LIVEWORKSHEETS
LIVEWORKSHEETS