Activitat 3: Indica en els requadres el punt on s'aplica la força, la resistència i el punt de suport en aquestes palanques de segon grau

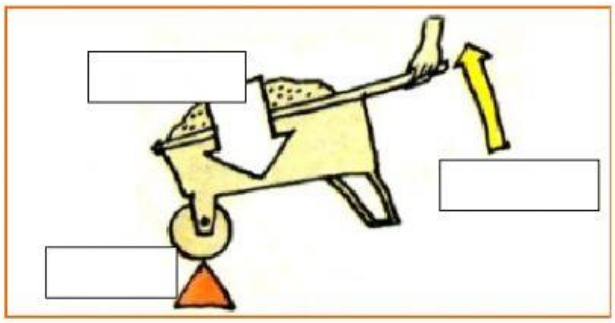

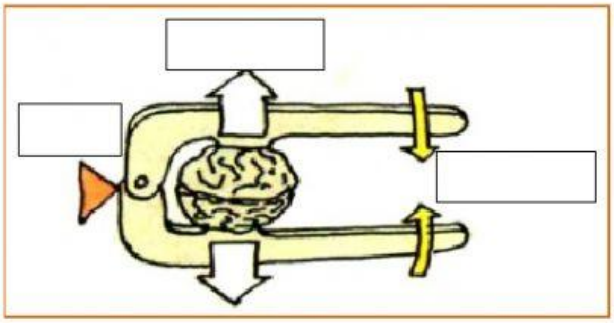

Palanques de 3er grau

En aquestes palanques queda enmig la força, de forma que **per vèncer una resistència cal fer una força major**.

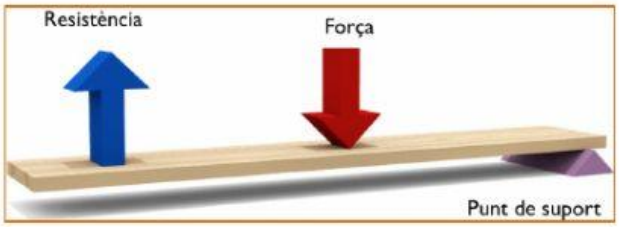

Activitat 4: Indica en els requadres el punt on s'aplica la força, la resistència i el punt de suport en aquestes palanques de tercer grau

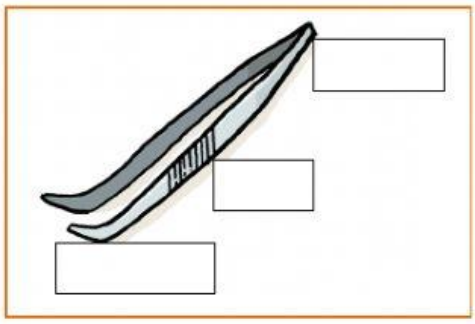

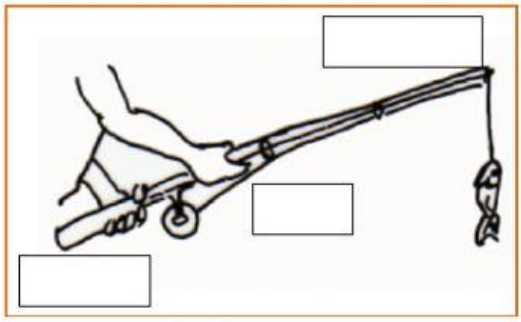

Activitat 5: Dibuixa ~~un carretó de mà~~, una granera i unes tisores. Situa els diferents elements de la palanca (força, resistència i punt de suport) i indica si es tracta d'una palanca de primer, segon o tercer grau

LIVEWORKSHEETS