مهمة علوم للصف الرابع أسم الطالب:

الغلاف المائي – الهيدروسفيرا

1. تمعّن في الرّسم البياني الدّائري التّالي ثمّ أجب عن الأسئلة التّي تليه:

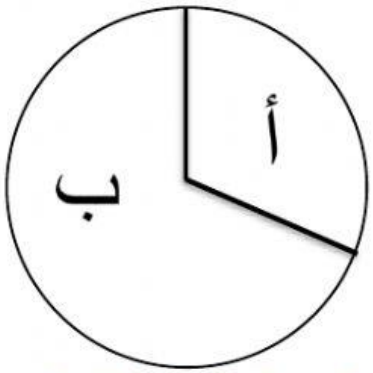

أ. أي جزء من الرسم ملائم للغلاف المائي؟ وما هي نسبته؟

ب. أي جزء مناسب لليابسة ؟ ما هي نسبته؟

2. تمعّن في الرّسم البياني الدّائري التّالي ثمّ أجب عن الأسئلة التّي تليه:

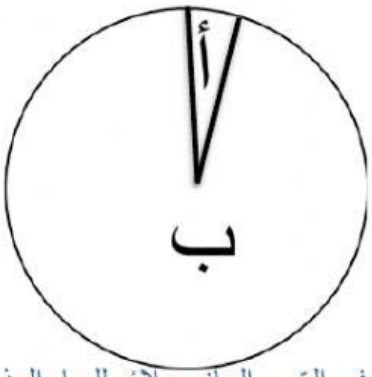

أ. أي جزء في الرّسم البياني ملائم للمياه العذبة؟ وما هي نسبته؟

ب. أي جزء من الرسم البياني ملائم للمياه المالحة؟ وما هي نسبته؟

LIVEWORKSHEETS

1. تمعّن في الرّسم الدّائري التّالي ثمّ أجب عن الأسئلة التي تليه:

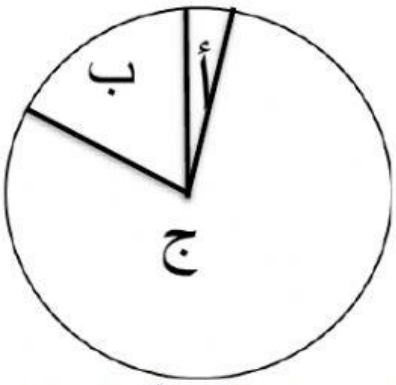

أ. أي جزء في الرّسم يمثّل غاز النيتروجين ؟ وما هي نسبته؟

ب.أي جزي يمثّل غاز الأوكسجين ؟ وما هي نسبته؟

ج. أي جزء يمثّل الأرغون , غاز ثاني أوكسيد الكربون وغازات أخرى ؟ وما هي نسبته؟

2.املأ الفراغات التالية بكلمة أوكسجين أو ثاني أوكسيد الكربون.

أ. غاز يلزم للتنفس

ب.غاز ضروري للاشتعال

ج.غاز ينطلق خلال التنفس في عمليّة الزفير

LIVEWORKSHEETS