Пищеварительная система

1. Укажите, какой цифрой обозначены на рисунке:

верхняя десна …

нижняя десна …

твердое нёбо …

мягкое нёбо …

язычок …

миндалины …

язык …

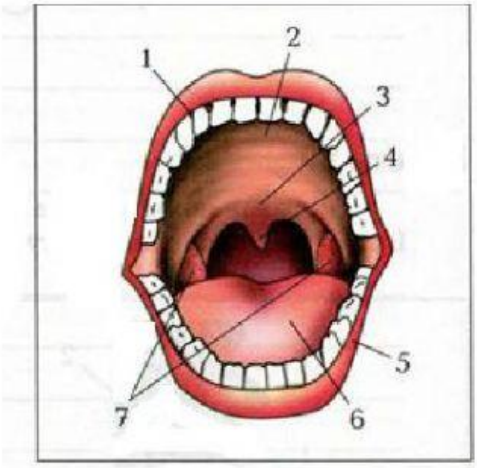

2. Рассмотрите рисунок В.

Напишите, какой зуб показан в разрезе Какие зубы следуют за ним

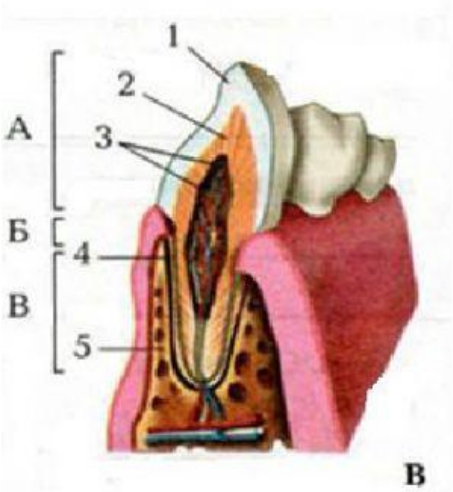

3. Укажите, какой цифрой на рисунке обозначены:

зубная эмаль …

дентин …

зубная пульпа …

цемент …

кости челюсти …

Какой буквой обозначены: коронка шейка корень

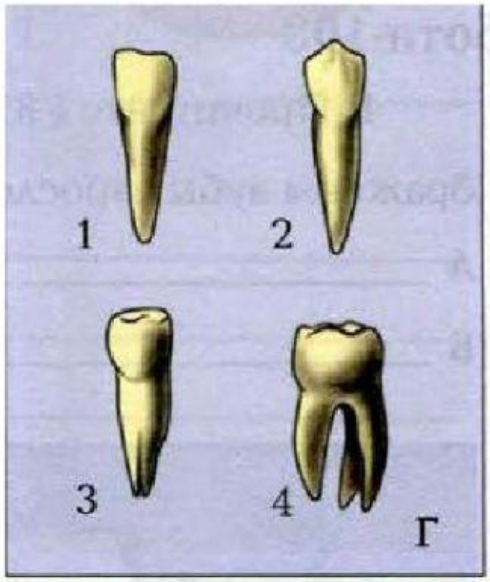

4. На рисунке изображены четыре типа зубов. Определите их в соответствии с номером на рисунке

Резец …

Клык …

Малый коренной …

Большой коренной …

5. Укажите цифры, которыми обозначены органы пищеварительной системы

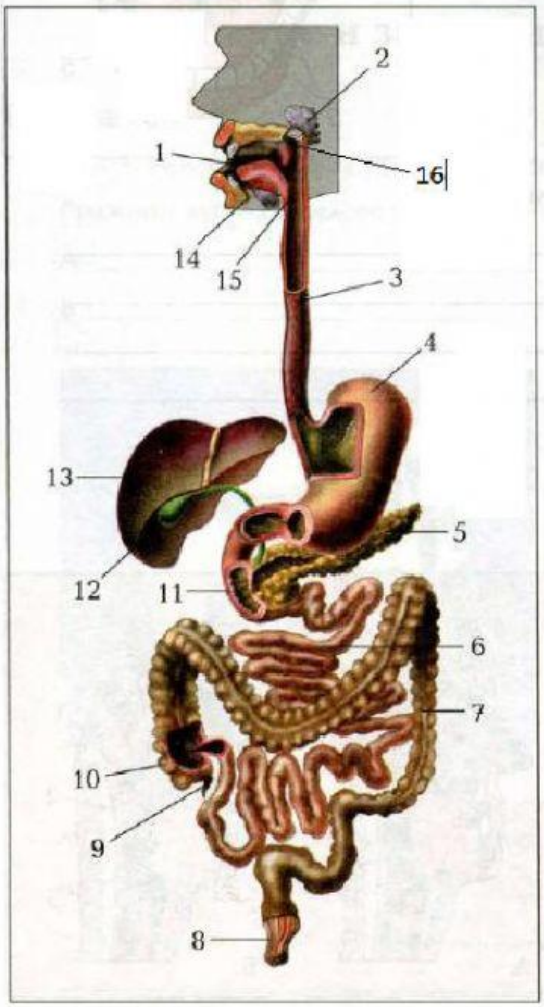

Ротовая полость ____

Слюнные железы:

околоушная ____

подъязычная ____

поднижнечелюстная ____

Глотка ____

Пищевод ____

Желудок ____

Печень ____

Желчный пузырь ____

Поджелудочная железа ____

Тонкая кишка ____

Двенадцатиперстная кишка ____

Толстая кишка ____

Слепая кишка ____

Аппендикс ____

Прямая кишка ____

6. Соотнесите название отдела пищеварительной системы с особенностями строения

Орган	Особенности строения
Ротовая полость	Ограничена верхним нёбом, щеками и губами
Глотка	Мышечная трубка — 25 см, стенки выделяют слизь
Пищевод	1,5-2 м, не имеет желез и ворсинок, имеет выпячивание — слепую кишку с отрастанием аппендицита
Желудок	Расширение пищевода, состоит из нескольких слоёв мышц
Тонкая кишка	Соединяет ротовую полость с пищеводом, а носовую — с гортанью
Толстая кишка	5-6 м, делится на двенадцатиперстную, тонкую, слизистая оболочка содержит ворсинки