PENILAIAN HARIAN TEMA 4



GLOBALISASI

KELAS VI





SDN ANGKE 03 PAGI

TA 2022/2023





LIVEWORKSHEETS

KOMPETENSI DASAR



3.3 Menelaah keberagaman sosial, budaya, dan ekonomi masyarakat



3.2 Menggali isi teks penjelasan (eksplanasi) ilmiah yang didengar dan dibaca.



3.5 Mengidentifikasi komponen listrik dan fungsinya serta menjelaskan cara menghasilkan, menyalurkan, dan menghemat energi listrik.



3.3 Menganalisis posisi dan peran Indonesia dalam kerja sama di bidang ekonomi,politik, sosial, budaya,teknologi, dan pendidikan dalam lingkup ASEAN.

3.1 Memahami reklame



LIVEWORKSHEETS

E – LKPD

LEMBAR KERJA PESERTA DIDIK ELEKTRONIK BERBASIS HOTs

(HIGHER ORDER THINKING SKILL)

KELAS VI

SDN ANGKE 03 PAGI

NAMA: _____

HARI/TANGGAL: _____



LIVEWORKSHEETS

PETUNJUK PENGGUNAAN *E*-LKPD



1. Tuliskan identitas kalian pada kotak yang telah disediakan!
2. Kerjakan setiap kegiatan yang ada pada LKPD ini.
3. Bacalah setiap petunjuk kegiatan dengan teliti sebelum mengerjakan.
4. Berdoalah sebelum mengerjakan.
5. Jika E-LKPD sudah dikerjakan semua, klik finish.
6. Setelah klik finish, maka akan muncul keterangan berikut



7. Pada kotak *Enter your full name*, tuliskan nama lengkap kalian.

a. Pada kotak *Group/level*, tuliskan kelas kalian.

b. Pada kotak *School subject*, tuliskan nama sekolah kalian

c. Selanjutnya masukan alamat email diahabdi76@gmail.com, lalu klik send

LIVEWORKSHEETS

AYO BERLATIH!



❖ **IPA KD. 3. 5**

1. Kata lain dari energi alternatif adalah…. .

   A. Energi Baru
   C. Energi Lain
   B. Energi Terbarukan
   D. Energi reformasi

2. Beri tanda ceklis untuk soal berikut!

   Gambar berikut yang tidak termasuk energy terbarukan adalah… .

A.  ○

C.  ○

B.  ○

D.  ○

3. Pada PLTA, turbin digerakkan oleh energy… .

   A. Air
   C. Angin
   B. Api
   D. Panas Bumi

4. 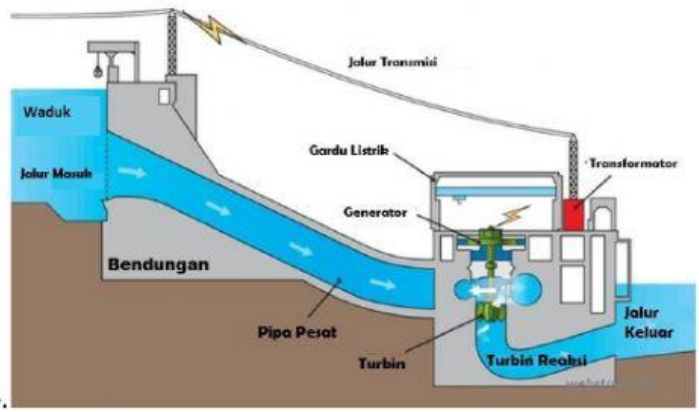

Perhatikan gambar!

Fungsi pipa pesat pada gambar adalah… .

A. Mengalirkan air menuju turbin

B. Mengatur ketinggian air pada waduk

C. Memutar generator

D. Menggerakan turbin pada generator

5. Energy alternative yang dihasilkan dari pengolahan tanaman yang mengandung minyak nabati seperti buah jarak, disebut... .

A. Avtur

B. Solar

C. Biosolar

D. Biogas

6. Beri tanda ceklist untuk pernyataan yang menunjukan kelebihan penggunaan energy terbarukan!

A. Tersedia melimpah di alam, ○

B. tidak akan habis, dan ramah lingkungan. ○

C. Sebagian besar sumber energy bergantung pada cuaca ○

D. Perawatan relatif lebih mudah dan murah ○

7. Pada PLTS, energy panas matahari dirubah menjadi energy... .

A. Gerak

B. Listrik

C. Panas

D. Mekanik

8. Bahan yang digunakan sebagai sel surya terbuat dari... .

A. Kaca

B. Silikon

C. Seng

D. Tembaga

9. Simak gambar!

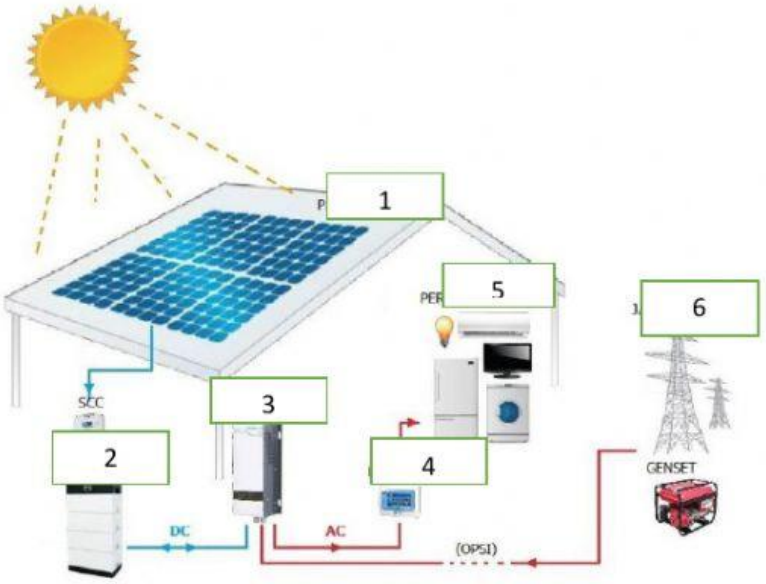

LIVEWORKSHEETS

Pada penampang sel surya tersebut, bagian yang berfungsi mengubah arus DC menjadi arus AC, ditunjukkan oleh nomor... .

A. 1 B. 2 C. 3 D. 4

10. Komponen utama dari setiap pembangkit listrik adalah... dan ... .

A. Turbin dan Generator

B. Pipa pesat dan Turbin

C. Inverter dan converter

D. Turbin dan Converter

LIVEWORKSHEETS

Every time a book is opened



magic falls out!

LIVEWORKSHEETS