ОДЕРЖУЄМО ЧАСТИНИ ЦІЛОГО

117 На скільки рівних частин поділено кожну фігуру? Познач кожну частину дробом.

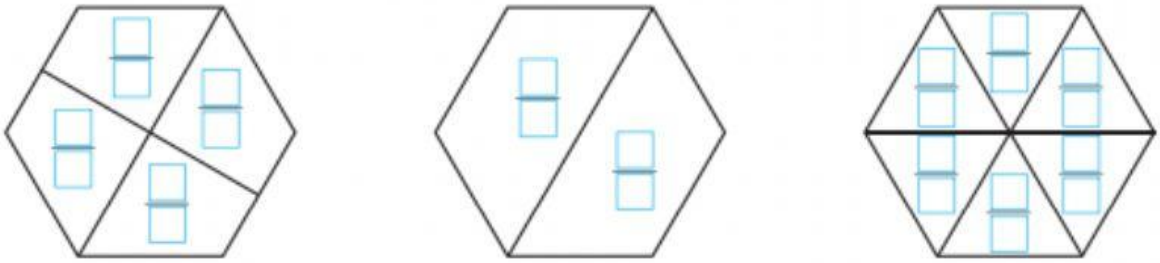

118 Запиши числами відповіді на запитання за малюнками.

Скільки рівних частин? ☐

Скільки зафарбованих частин? ☐

Яку частину фігури зафарбовано? $\frac{\square}{\square}$



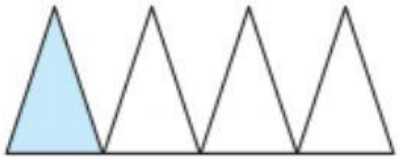

Скільки рівних частин? ☐

Скільки зафарбованих частин? ☐

Яку частину фігури зафарбовано? $\frac{\square}{\square}$

119 Виріж із паперу квадрат зі стороною 10 см.

Склади його так, щоб показати: $\frac{1}{2}$ квадрата;

$\frac{1}{4}$ квадрата; $\frac{1}{8}$ квадрата; $\frac{1}{16}$ квадрата.

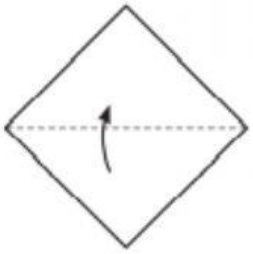

120 Знайди значення виразів.

$3 \cdot 8 : 6 \cdot 7 + 34 =$ ☐

$9 \cdot 3 + 3 \cdot 4 : 6 =$ ☐

$72 : (100 - 9 \cdot 9 - 5 \cdot 2) =$ ☐

$6 \cdot 7 - (7 \cdot 4 + 32 : 8) =$ ☐

$100 - 56 : 7 \cdot 5 : 10 =$ ☐

$(6 \cdot 8 - 5 \cdot 8) \cdot 2 =$ ☐

$6 \cdot 6 : 4 \cdot 7 - 26 =$ ☐

$5 \cdot 10 - (3 \cdot 4 - 56 : 7) =$ ☐

LIVEWORKSHEETS