TOÁN

Bài 5: Biểu diễn phân số bằng hình học

Bài 1. Chọn phân số biểu diễn số phần đã tô màu trong mỗi hình dưới

	○ $\frac{1}{2}$	○ $\frac{1}{4}$	○ $\frac{2}{3}$	○ $\frac{3}{4}$
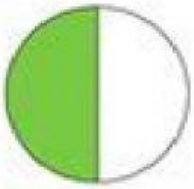	○ $\frac{1}{2}$	○ $\frac{1}{4}$	○ $\frac{2}{3}$	○ $\frac{3}{4}$
	○ $\frac{1}{2}$	○ $\frac{1}{4}$	○ $\frac{2}{3}$	○ $\frac{3}{4}$
	○ $\frac{1}{2}$	○ $\frac{1}{4}$	○ $\frac{1}{3}$	○ $\frac{2}{3}$
	○ $\frac{1}{2}$	○ $\frac{1}{4}$	○ $\frac{1}{3}$	○ $\frac{2}{3}$
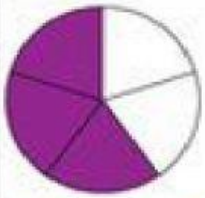	○ $\frac{1}{6}$	○ $\frac{1}{5}$	○ $\frac{3}{5}$	○ $\frac{2}{3}$
	○ $\frac{1}{2}$	○ $\frac{1}{6}$	○ $\frac{4}{6}$	○ $\frac{1}{3}$

LIVEWORKSHEETS

Bài 2. Viết phân số biểu diễn số phần bánh đã lấy đi trong mỗi hình dưới đây:

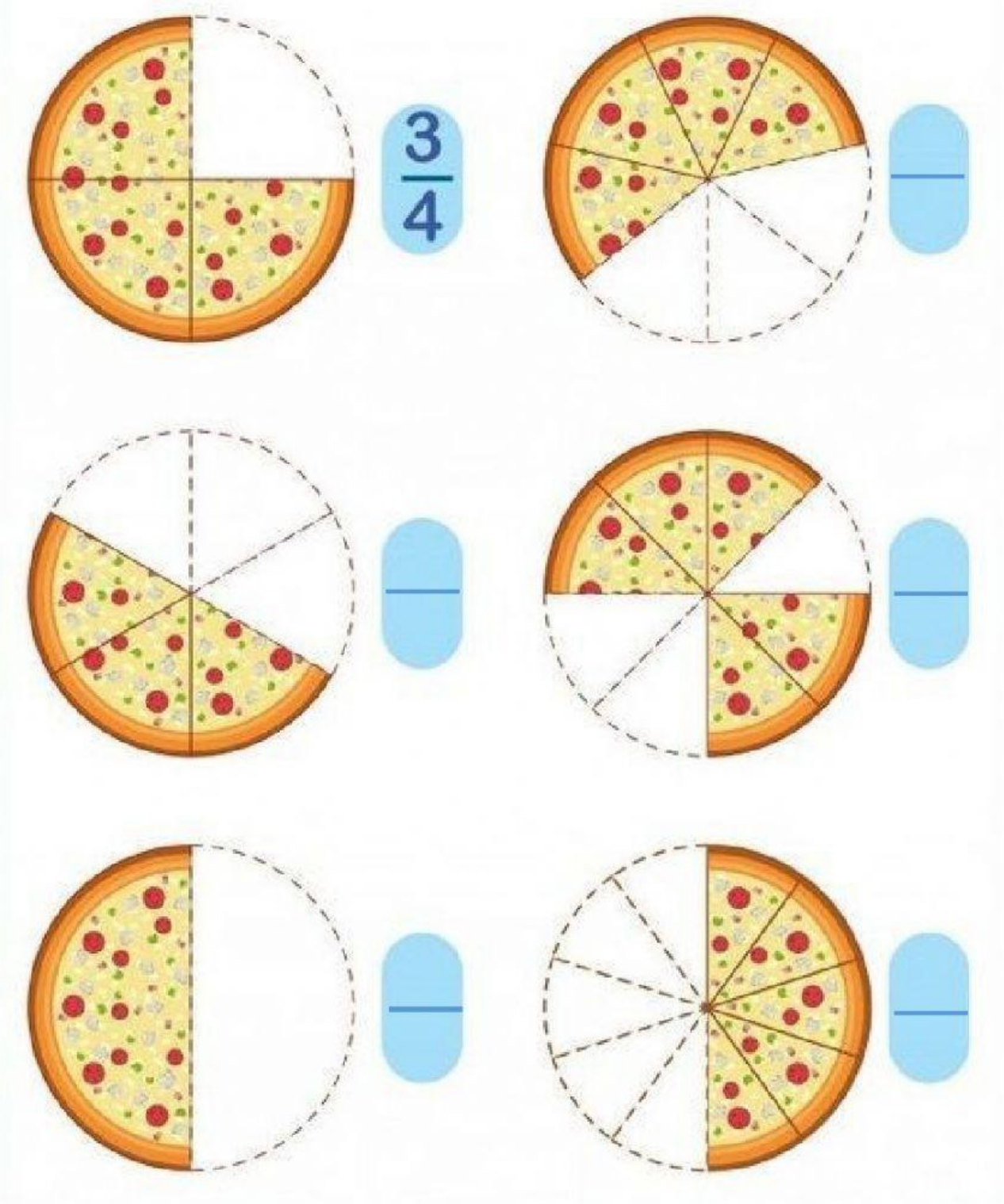

LIVEWORKSHEETS

Bài 3. Viết phân số biểu diễn số phần chưa tô màu trong mỗi hình dưới đây:

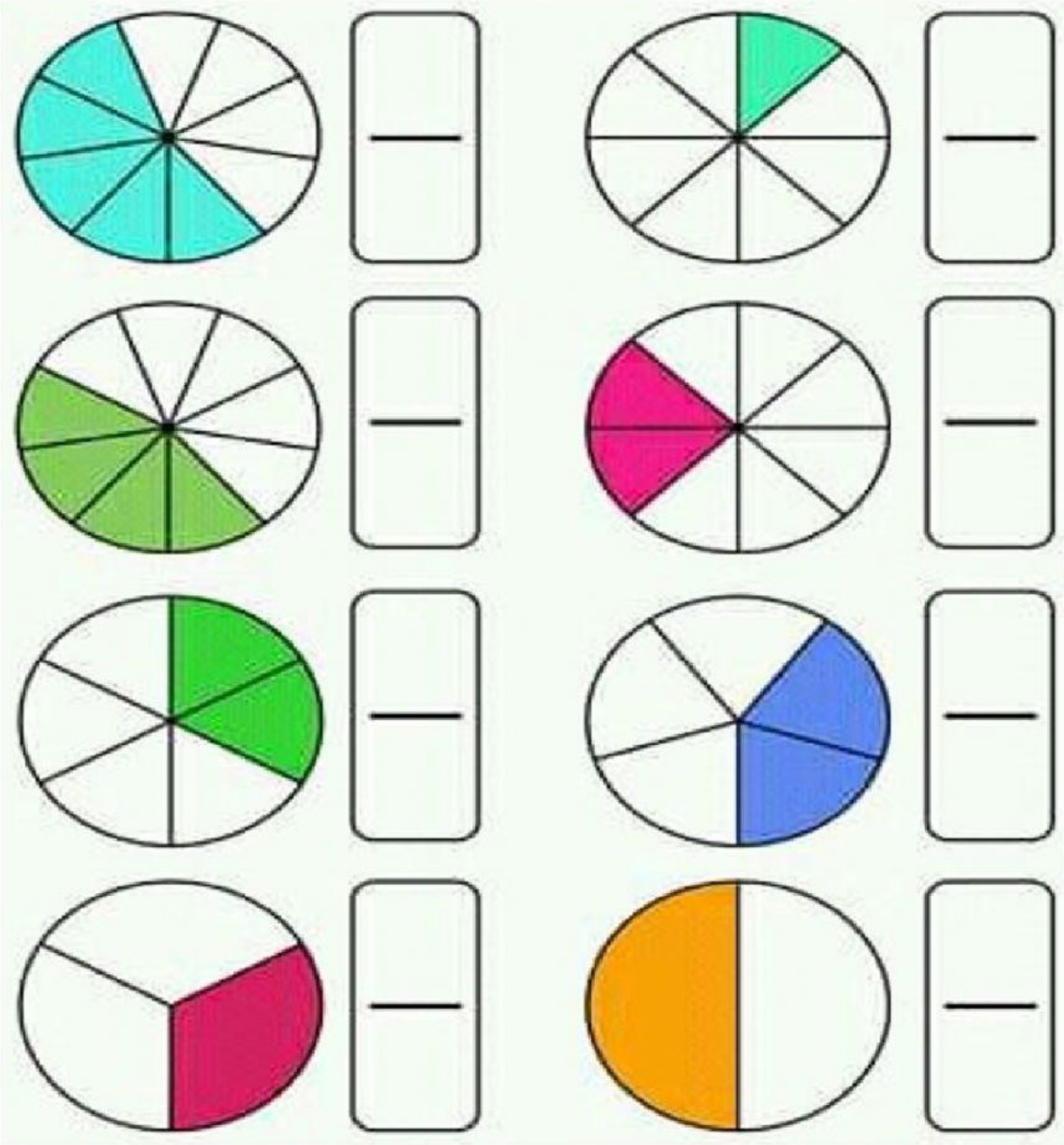

LIVEWORKSHEETS