1 Įrašykite praleistus žodžius

Elektros srovė – _____ elektringųjų dalelių judėjimas.
_____ - taip vadinamos medžiagos, kurios ištirpusios skyla į teigiamus ir neigiamus jonus.
_____ - medžiagos, gerai praleidžiančios elektros srovę.
_____ - medžiagos, kurios blogai arba iš viso nepraleidžia elektros srovės.

2. Pažymėkite, ko reikia, kad tekėtų elektros srovė

Laisvųjų ir krūvį turinčių dalelių (elektronų, jonų)
Elektros
Jėgos, verčiančios kryptingai judėti elektringąsias daleles
Uždaros grandinės
Atviros grandinės

3. Sujunkite atitikmenis.

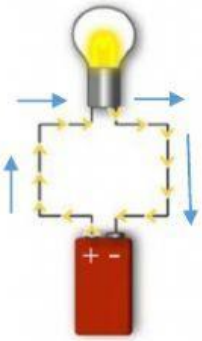

Elektronų judėjimo kryptis

Elektros srovės kryptis

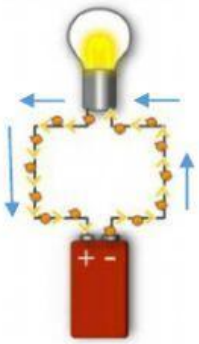

4. Nuveskite grandinės elemento pavadinimą prie jo sutartinio ženklo.



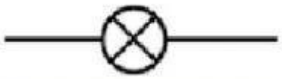

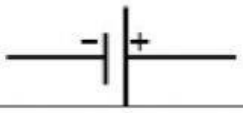



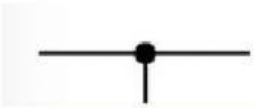

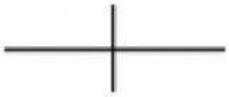

Elektros skambutis	Elementų baterija	Susikertantys laidai	gnybtai
Sujungti laidai	Galvaninis elementas	lemputė	jungiklis

LIVEWORKSHEETS

5. Pagal pateiktą grandinės pavyzdį, nuveskite grandinės elemento sutartinį simbolį į jo vietą grandinėje.

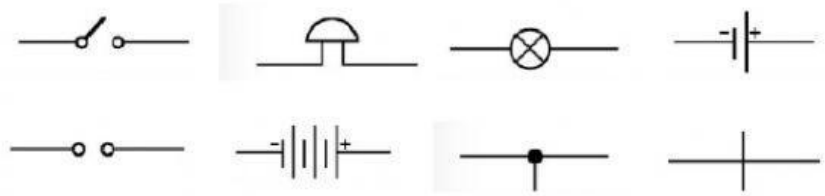

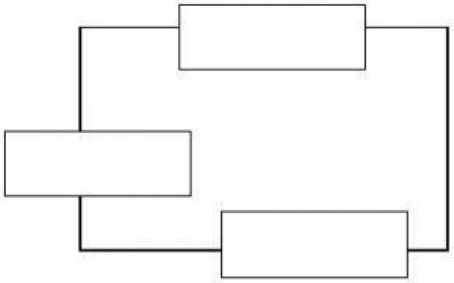

LIVEWORKSHEETS