Қалыптастырушы бағалау

ТАПСЫРМА 1

Берілген сандық шамаларды өлшем бірліктеріне қарай сәйкестендіріңіз:

| | |
|---|---|
| 40 $см^3$ | 0,5 кг |
| 72 км/сағ | 0,0001 $м^3$ |
| 100$см^3$ | 40 кН |
| 40000 Н | 3600 с |
| 250 мг | 100 $см^3$ |
| 2700 $кг/м^3$ | 20 м/с |
| 1 сағ | 0,00004 $м^3$ |
| 250 мл | 2,7 $г/см^3$ |
| 500 г | 250 $см^3$ |

ТАПСЫРМА 2

1.Дене тең уақыт аралығында ұзындығы бірдей жол жүрсе ол қандай қозғалыс?

а)Үздіксіз

ә)Бірқалыпты

емес

LIVEWORKSHEETS

б)Механикалық
в)Бірқалыпты
г)Жылулық

2.Жылдамдықтың анықтамалық формуласы
а)$t=s/\vartheta$
ә)$s=\vartheta\cdot t$
б)$\vartheta=s/t$
в)$\vartheta_{орт}=l/t$
г)Барлығы

3.Велосипедші бірқалыпты қозғалып 20 мин ішінде 6 км жол жүрген жылдамдығын тап
а)0,5м/с
ә)50м/с
б)5м/с
в)0,05м/с
г)20м/с

4.Автобус алғашқы 9 км жолды 36 км/сағ жылдамдықпен,ал келесі 27 км жолды 54 км/сағ жылдамдықпен жол жүрді.Автобус қозғалысының орташа жылдамдығы қандай?
а)46км/сағ
ә)45км/сағ
б)48км/сағ
в)47км/сағ

LIVEWORKSHEETS

г)49км/сағ

5.Бірқалыпты түзусызықты қозғалатын дененің қозғалыс заңы теңдеуі:

а)$x=x_0$

ә)$x=x_0+\vartheta t$

б)$x=\vartheta t$

в)а,ә

г)Дұрыс жауабы жоқ

ТАПСЫРМА 3

1. **Суретте өшіргіштің ұзындығының өлшемі көрсетілген**




А) Сызғыштың бөлік құнын анықтаңыз.
Бөлік құны_____ см

В) Өшіргіштің ұзындығын анықтаңыз. Өшіргіштің ұзындығын өлшеу қателігін ескере отырып жазыңыз

Ұзындық = _____ ±_____ см

**2.Ойыншық**
**трактор түзу бойымен А нүктесінен С нүктесіне дейін ба рып, қайта В нүктесіне оралды.**

LIVEWORKSHEETS

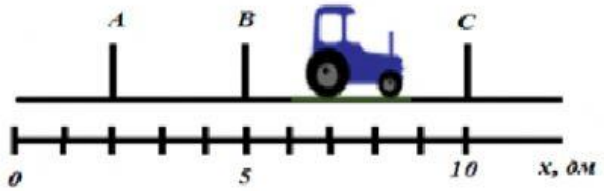


Трактордың жүрген жолы_____

Трактордың орын ауыстыруы _____

**3.**

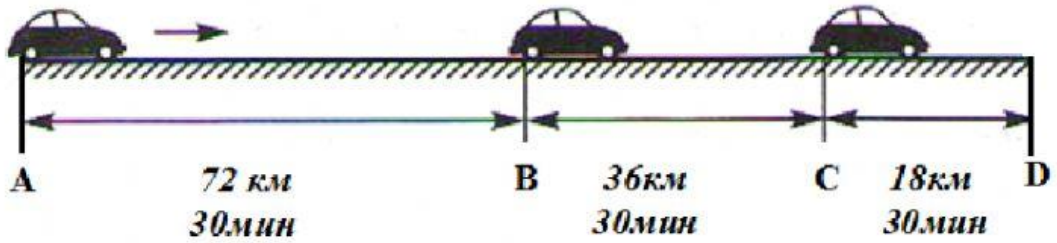


a)
Суретті пайдаланып, машинаның **CD** аралығын қандай жылда мдықпен өткенін анықтаңыз.

_____ **м/ с**

b) Орташа жылдамдығын есептеу формуласын жазыңыз

_____

А- дан С-
ға дейін велосипедшінің орташа жылдамдығын есептеңіз

_____ **м/с**

LIVEWORKSHEETS