NAMA:

PILIH JAWAPAN YANG BETUL.

1. Cerakinkan 9 003 mengikut nilai digit

A	900 + 30	C	900 + 90 + 3
B	9 000 + 3	D	9 000 + 900 + 30

2. Cari beza nilai digit 8 dan digit 7 dalam nombor 8 574.

A	7 500	C	7 900
B	7 930	D	7 830

3. 896 ÷ 7 =

A	128	C	138
B	129	D	139

4. Rajah 5 menunjukkan operasi tambah berulang.

6 + 6 + 6 + 6 + 6 + 6 + 6 + 6

Rajah 5

Ayat matematik yang sesuai untuk operasi di atas ialah…

A	8 + 6 = 18	C	7 x 6 = 42
B	8 x 6 = 48	D	8 + 6 = 48

5. 8 000 – 3 450 – 1948 =

A	2 501	C	2 602
B	2 512	D	2 620

6. Antara yang berikut, yang manakah menunjukkan $\frac{5}{7}$?

A 

C 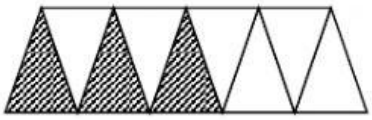

B 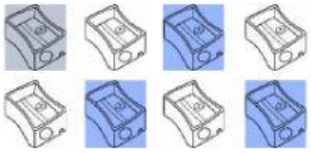

D 

LIVEWORKSHEETS

7. Laila mempunyai 3 840 biji gula – gula.
Dia memberikan Rani 960 biji gula – gula.
Berapakah baki gula – gula Laila?

A 4 800 C 2 800
B 3 744 D 2 880

8. Selvi mempunyai 100 biji guli.
Mai Lin mempunyai separuh daripada guli Selvi.
Berapakah bilangan guli Mai Lin?

A 50 C 60
B 500 D 10

9. Lima pertujuh ditulis dalam angka.

A $\frac{3}{7}$ C $\frac{6}{7}$

B $\frac{5}{7}$ D $\frac{7}{8}$

10. Cerakinkan 8 423 mengikut nilai digit

A 8 ratus + 3 puluh C 8 ratus + 2 puluh + 3 sa
B 8 ribu + 3 sa D 8 ribu + 4 ratus + 2 puluh + 3 sa

LIVEWORKSHEETS