6.Ойыншық трактор түзу бойымен А нүктесінен С нүктесіне дейін барып, қайта В нүктесіне оралды.

Трактордың жүрген жолы_____ **[1]**

Трактордың орын ауыстыруы _____ **[1]**

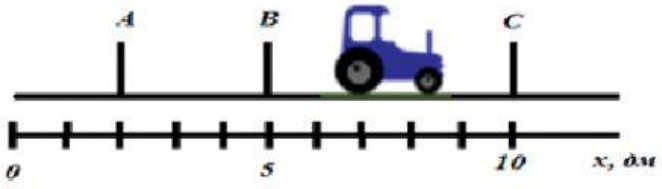

7. Оқушы суретте көрсетілген өшіргіштің ұзындығын өлшеу керек.

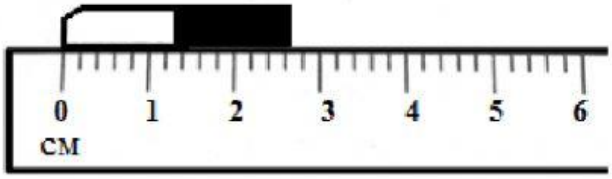

А) Сызғыштың бөлік құнын анықтаңыз. Бөлік құны _____ см **[1]**

В) Өшіргіштің ұзындығын анықтаңыз. Өшіргіштің ұзындығын өлшеу қателігін ескере отырып жазыңыз .

Ұзындық = _____ ± _____ см **[2]**

8. **Көлбеу жазықтықта науамен шар 0,6 м/с жылдамдықпен домалап түсіп, горизонталь жазықтықта тіреуге дейін 1,2 м/с жылдамдықпен қозғалды.**

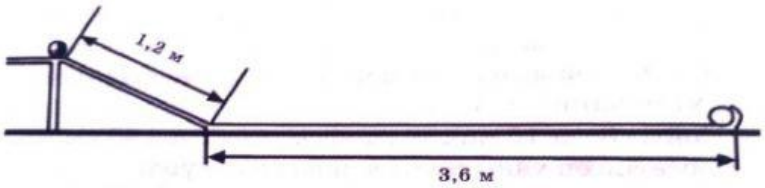

А) Көлбеу жазықтықтан шардың түсу уақытын анықтаңыз

_____с **[1]**

В) горизонталь жазықтықта тіреуге дейін қозғалған шардың уақытын анықтаңыз

_____ с **[1]**

С) Шардың барлық жол бойындағы орташа жылдамдықтарын есептеңіз

_____ м/с **[1]**

9 . **Суретте дене координатасының уақытқа тәуелді графигі берілген.**

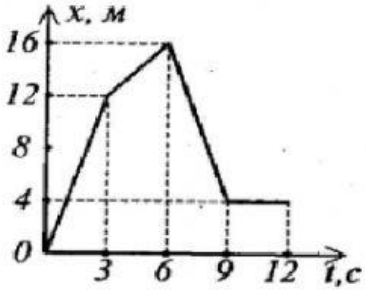

А) 0-3 секунд интервалындағы дененің жылдамдығын анықтаңыз

_____ **[1]**

В) 3-6 секунд интервалындағы дененің жүрген жолын табыңыз

LIVEWORKSHEETS

_____ **[1]**

LIVEWORKSHEETS