Trường Tiểu học Hiến Nam

Họ và tên: .....

Cô: Thủy Lê

TUẦN 8

- Luyện tập chung: *Ôn tập phép cộng, phép trừ có nhớ trong phạm vi 20; giải bài toán về nhiều hơn/ ít hơn một số đơn vị.*

Bài 1. Khoanh vào chữ cái đặt trước câu trả lời đúng:

1. Số bị trừ là 96, số trừ là 3 chục. Lúc đó, hiệu sẽ là:

A. 36 B. 93 C. 66 D . 99

2. 35 được đọc là :

A. ba lăm C. ba mươi lăm

B. ba mươi năm D. ba và năm

3. Các số 82, 67, 24, 19, 43, 8 được xếp theo thứ tự từ bé đến lớn là:

A. 8, 67, 24, 19, 43, 82 C. 82, 67, 43, 24, 19. 8

B. 8, 19, 43, 24, 67, 82 D. 8, 19, 24, 43, 67, 82

4. Cho: 20cm – 3cm = ... Cần điền vào chỗ chấm là:

A. 17cm B. 17 C. 17cm D . 23cm

5. Lan và chị cùng giúp bà thu hoạch cam. Lan hái được 9 quả cam, chị hái được nhiều hơn Lan 5 quả cam. Hỏi chị hái được bao nhiêu quả cam?

A. 13 quả cam B. 12 quả cam C. 14 quả cam D . 4 quả cam

6. Số nào giảm 3 đơn vị rồi thêm 5 đơn vị được 10

A. 9 B. 7 C. 5 D . 8

Bài 2. Tính.

5 + 6 = …	5 + 8 = …	11 – 2 = …	13 – 5 = …
7 + 8 = …	4 + 7 = …	15 – 8 = …	14 – 6 = …
4 + 9 = …	8 + 4 = …	13 – 7 = …	16 – 8 = …
6 + 8 = …	9 + 9 = …	16 – 9 = …	17 – 9 = …
9 + 2 = …	7 + 5 = …	12 – 6 = …	15 – 6 = …



LIVEWORKSHEETS

Bài 3. Số?

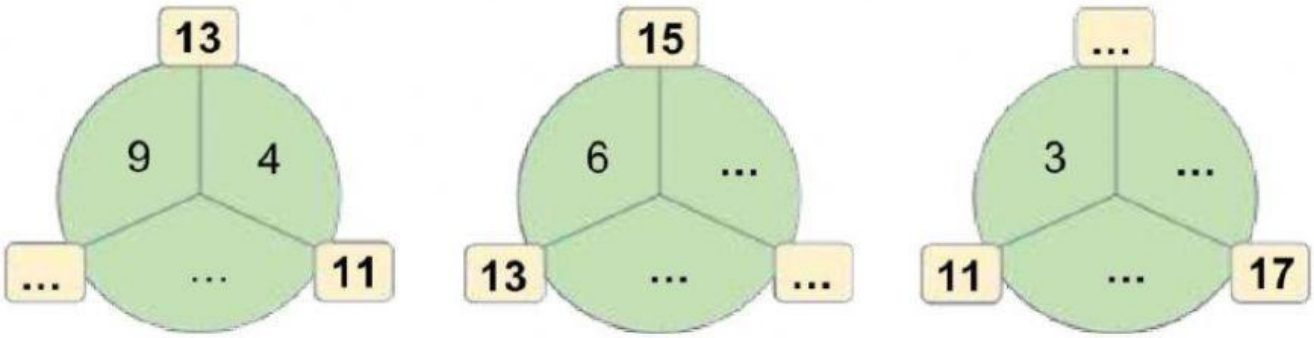

Bài 4. Em sút bóng vào gôn nhé!

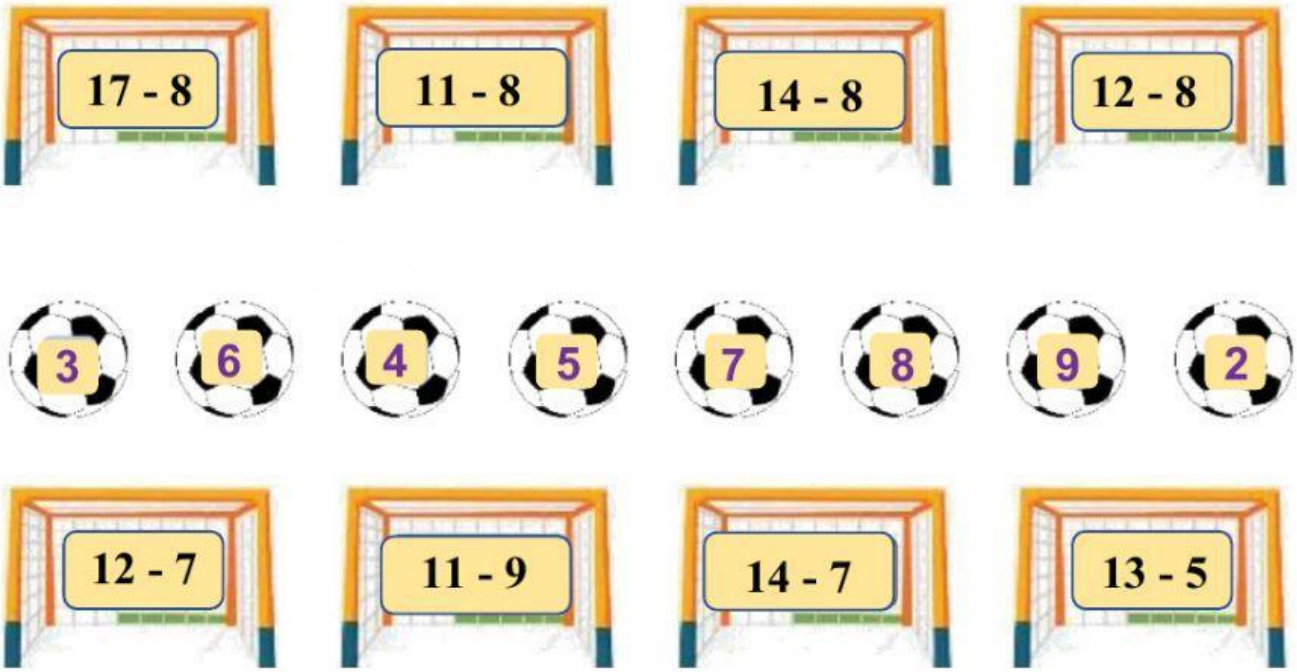

Bài 5. Số?

12 - 5 = 10 - ..... 11 - 6 = 12 - ..... 15 - 6 = 12 - .....

13 - ..... = 10 - 4 10 - 7 = ... - 4 ..... - 5 = 10 - 2

Bài 6. Số?

Số bị trừ	11	12	13	14	15	11	12	14	16
Số trừ	5	7	4	6	7	6	5	8	8
Hiệu									

LIVEWORKSHEETS

Bài 7. Em hãy giúp các bạn thú lên đúng toa tàu của mình nhé!



12 - 9 + 3

12 - 6 + 8

11 - 8 + 5

13 - 7 + 6

Bài 8. Mai có số bóng bằng số liền sau số bé nhất có hai chữ số. Mai có nhiều hơn Nam 4 quả bóng. Hỏi Nam có bao nhiêu quả bóng? Cả hai bạn có tất cả bao nhiêu quả bóng?

- Trả lời:

+ Nam có ..... quả bóng.

+ Cả hai bạn có ..... quả bóng.

Bài 9. Số?

a) Số lớn nhất có hai chữ số mà tổng các chữ số của nó bằng 9 là .....

b) Số bé nhất có hai chữ số mà tổng các chữ số của nó bằng 9 là .....

c) Số lớn nhất có hai chữ số mà tổng các chữ số của nó bằng 11 là .....

d) Số bé nhất có hai chữ số mà tổng các chữ số của nó bằng 11 là .....

LIVEWORKSHEETS