Підсумково -узагальнюючий урок до II розділу «Земля на плані і карті»

1. Назвіть, який напрямок указує Полярна зоря

А на південь **Б** на північ **В** на схід **Г** на захід

2. Укажіть, у якому напрямку туристам слід повертатися тією самою дорогою, якщо вони вирушили в похід на північний захід.

А північно-східному **В** північно-західному

Б південно-східному **Г** південно-західному

3. Укажіть, яким знаком на плані зображують луки.

А **Б**  **В**  **Г** 

4. З'ясуйте, який числовий масштаб відповідає іменованому в 1 см 500 м.

А 1 : 500 **Б** 1 : 5000 **В** 1 : 50 000 **Г** 1 : 500 000

5. Зазначте, який об'єкт є початком для відліку географічної довготи.

А екватор **В** північний полюс

Б нульовий меридіан **Г** південний тропік

6. З'ясуйте, яка паралель найдовша.

А 80° **Б** 60° **В** 40° **Г** 0°

7. Укажіть, яку довготу мають точки, розташовані на нульовому меридіані.

А 0° **Б** 0° пн. ш. **В** 0° пд. д. **Г** 0° сх. д

8. Установіть відповідність між зображеними на малюнку об'єктами й азимутом, за яким до них потрібно рухатися.

1 дерево
2 завод
3 будинок
4 вітряк

А 120°
Б 240°
В 300°
Г 180°
Д 60°



9. Установіть відповідність між числовим та іменованим видами масштабу.

1 1 : 1000
2 1 : 10 000
3 1 : 100 000
4 1 : 100 000 000

А в 1 см 100 км
Б в 1 см 100 м
В в 1 см 1 км
Г в 1 см 1 000 км
Д в 1 см 10 м

10. Поміркуйте, яке твердження є правильним:

А) карта — модель Землі; **Б) карта — модель земної поверхні.**

11. Чи може бути глобус України? Відповідь обґрунтуйте.

12. Що називають легендою карти?

13. Яка подорож від полюса до полюса буде коротшою: вздовж 30-го меридіана чи 60-го?

14. Визначте географічні координати міст: Токіо, Вашингтон

LIVEWORKSHEETS