Nama : .....

Kelas : .....

PENGURANGAN MATEMATIKA

Petunjuk Kerja

1. Tuliskan nama dan kelas di tempat yang telah disediakan.
2. Kerjakan secara Individu
3. Berdoalah sebelum mengerjakan
4. Teliti kembali sebelum mengumpulkan lembar kerja

Soal



1. Roni membeli 5 buku tulis.
3 buku tulisnya diberikan kepada Susanti.
Berapa buku tulis yang dimiliki Roni sekarang?

a. 3
b. 2
c. 1



2. Ratna membeli 4 permen di warung.
Kemudian Ratna memakan 3 permen yang dimilikinya.
Berapa sisa permen yang dimiliki Ratna sekarang?

a. 1
b. 7
c. 2



3. Ibu ke pasar membeli 10 buah apel.
5 buah apel diberikan kepada adek.
Berapa banyak buah apel yang tersisa?

a. 5
b. 10
c. 15

LIVEWORKSHEETS



4



Danial membeli 5 donat.
Pada saat perjalanan pulang ke rumah 2 donatnya terjatuh.
Berapa banyak donat yyang dimiliki Danial sekarang?

..... - ..... = ...
Banyaknya donat yang dimiliki Danial sekarang adalah...

5



Ibu membuat 8 kue untuk dibagikan ke tetangga.
Namun 2 kuenya dimakan adek.
Berapa kue yang dimiliki Ibu sekarang?

..... - ..... = ...
Banyaknya kue yang dimiliki Ibu sekarang adalah...



LIVEWORKSHEETS

6 Pilihlah dengan jawaban yang benar!



7 Dengarkan suara dengan saksama! Pilihlah Jawaban benar atau salah!

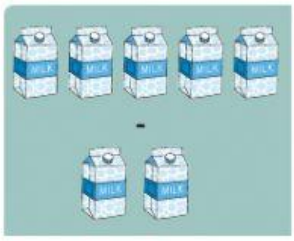

Benar

Salah

8 Pasangkanlah dengan jawaban yang benar!

7-2	●	●	9
15-6	●	●	8
12-4	●	●	5

9 Letakkan gambar di bawah ini pada tempat yang menurutmu benar!





Salah

Benar



LIVEWORKSHEETS

10

Hitunglah terlebih dahulu!
Pencet pada gambar microfon sambil mengungkapkan jawabanmu!

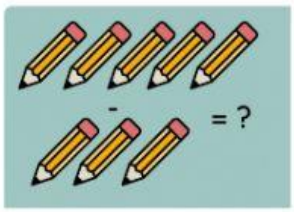

SELAMAT MENGERJAKAN

LIVEWORKSHEETS