PETA DAN KOMPONENNYA

LKPD

NAMA :

KELOMPOK :

KELAS IV SD

LIVEWORKSHEETS

CAPAIAN PEMBELAJARAN (CP)

Peserta didik mampu menunjukkan letak kota/kabupaten dan provinsi tempat tinggalnya pada peta konvensional/digital.

TUJUAN PEMBELAJARAN

1. Melalui kegiatan diskusi kelompok, diharapkan siswa dapat menjelaskan pengertian peta.
2. Melalui kegiatan mengamati gambar peta provinsi jawa timur, diharapkan siswa dapat menyebutkan minimal 5 komponen-komponen peta.
3. Melalui kegiatan diskusi kelompok, diharapkan siswa dapat menunjukkan letak provinsi tempat tinggalnya pada peta konvensional.
4. Melalui kegiatan diskusi kelompok, diharapkan siswa dapat menunjukkan letak kota/kabupaten tempat tinggalnya pada peta konvensional.

PETUNJUK PENGGUNAAN

1. Berdoalah sebelum memulai kegiatan belajar !
2. Tulislah nama dan kelompok pada identitas LKPD !
3. Bacalah setiap instruksi dengan teliti !
4. Tulislah jawabanmu pada kolom yang sudah disediakan !
5. Kerjakan dengan cermat dan teliti !
6. Kumpulkan LKPD kepada gurumu jika semua kegiatan belajar sudah terselesaikan !
7. Tanyakan pada gurumu jika ada materi yang belum kamu pahami !

LIVEWORKSHEETS

Apa 5 pulau terbesar yang ada di Indonesia ?

Ayo Mengamati

1. Amatilah gambar peta pulau jawa di bawah ini !
2. Buatlah pertanyaan terkait letak provinsi-provinsi yang ada di pulau jawa !

Pertanyaan :

LIVEWORKSHEETS

Ayo Berdiskusi

1. Buatlah kelompok yang terdiri dari 3-4 siswa.
2. Diskusikan dengan kelompokmu terkait pengertian peta !

APA ITU PETA ?

Peta adalah ...

LIVEWORKSHEETS

Ayo Mengamati

1. Secara berkelompok amatilah gambar peta provinsi jawa timur di bawah ini !
2. Sebutkan komponen-komponen peta dengan menggeser kata di bawah gambar ke arah kotak yang kosong !

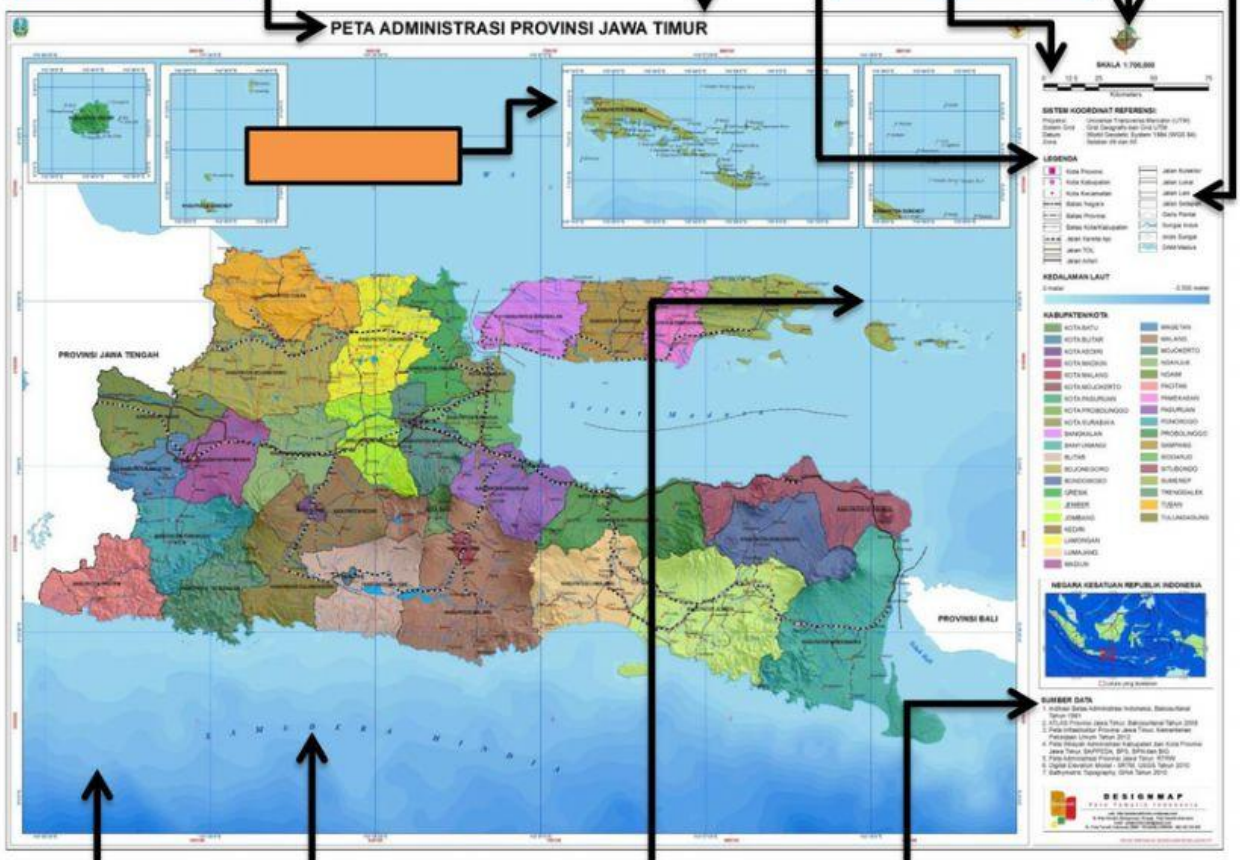

JUDUL PETA | SIMBOL PETA | LEGENDA | GARIS ASTRONOMIS

ARAH MATA ANGIN | INSET | GARIS TEPI | TIPE HURUF

SKALA PETA | WARNA PETA | SUMBER DAN TAHUN PEMBUATAN

LIVEWORKSHEETS

Ayo Membaca

Bacalah teks di bawah ini dengan cermat !

KOMPONEN-KOMPONEN PETA

1. Judul peta mencerminkan isi peta.
2. Arah mata angin berfungsi sebagai petunjuk arah.
3. Skala peta adalah perbandingan jarak pada peta dengan jarak sebenarnya di permukaan bumi.
4. Simbol peta adalah tanda atau gambar yang mewakili ketampakan yang ada di permukaan bumi pada peta.
5. Warna peta digunakan untuk membedakan ketampakan atau objek di permukaan bumi.
6. Tipe Huruf (Lettering) berfungsi untuk mempertebal arti dari simbol-simbol yang ada.
7. Legenda adalah sebuah daftar atau tabel keterangan dari simbol-simbol yang merupakan kunci untuk memahami peta.
8. Inset adalah peta kecil yang disisipkan di peta utama. Ukurannya lebih kecil dan digunakan untuk memperjelas suatu informasi pada peta utama.
9. Garis tepi peta merupakan garis yang terletak di bagian tepi peta dan ujung-ujung tiap garis bertemu dengan ujung garis yang berdekatan.
10. Garis astronomis terdiri atas garis lintang (horizontal) dan garis bujur (vertikal) yang digunakan untuk menunjukkan letak suatu tempat atau wilayah yang dibentuk secara berlawanan arah satu sama lain. Garis lintang adalah garis yang melintang dari arah barat ke timur atau dari arah timur ke barat. Sedangkan garis bujur adalah garis yang membujur dari arah utara ke selatan atau dari selatan ke utara.
11. Sumber peta adalah referensi dari mana data peta diperoleh. Sedangkan tahun pembuatan menunjukkan waktu dibuatnya peta tersebut.

LIVEWORKSHEETS

Ayo Berdiskusi

Diskusikan dengan kelompokmu terkait :

- Provinsi-provinsi yang ada di pulau jawa
- Letak provinsi tempat tinggalmu pada peta dengan meng "klik" peta

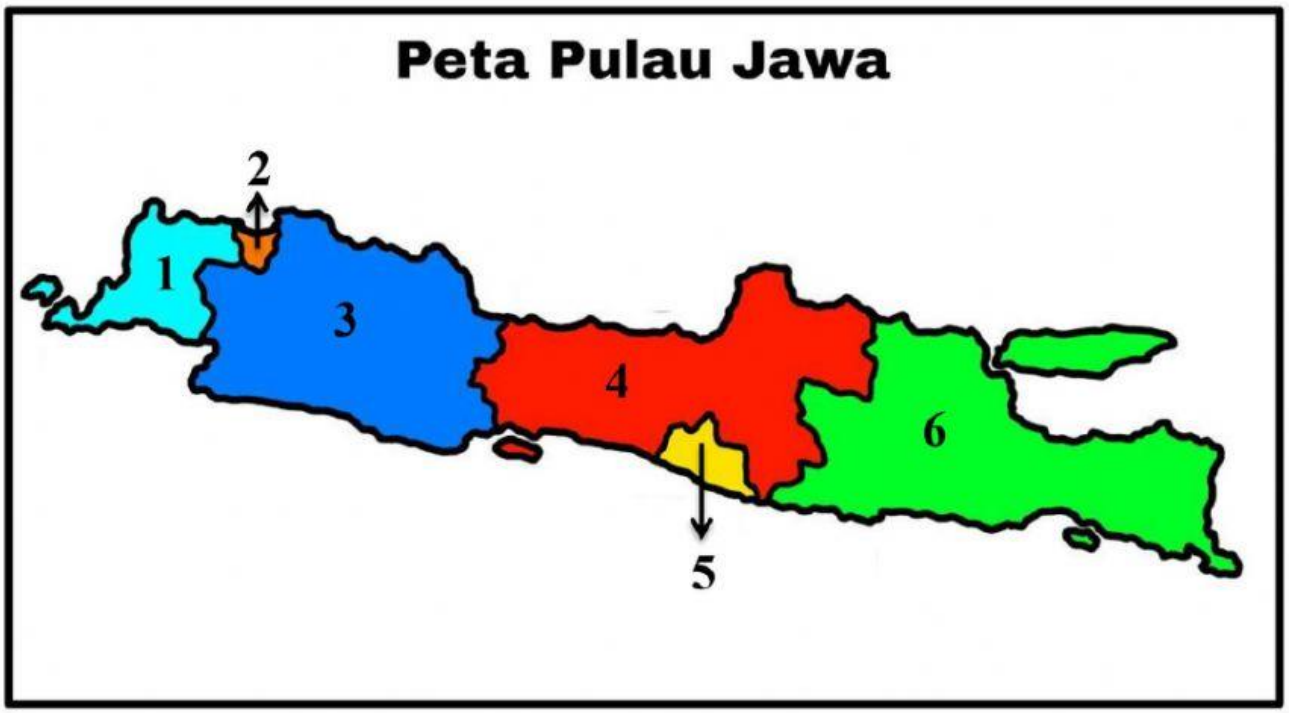

Sebutkan nama-nama provinsi secara berurutan sesuai gambar di atas !

1. Provinsi .....
2. Provinsi .....
3. Provinsi .....
4. Provinsi .....
5. Provinsi .....
6. Provinsi .....

LIVEWORKSHEETS

Ayo Mengamati

Amatilah video berikut ini !

Sebutkan minimal 5 kota/kabupaten yang ada di provinsi jawa timur !

Ayo Berdiskusi

1. Secara berkelompok buatlah laporan sederhana seperti tabel di bawah ini !
2. Isilah data yang berisikan nama anggota kelompok dan kota/kabupaten tempat tinggalnya, selanjutnya diskusikan letaknya pada peta !
3. Berikan tanda "klik" pada peta di tabel sesuai letak kota/kabupaten tempat tinggalmu !

LIVEWORKSHEETS

LAPORAN HASIL PENYELIDIKAN

No	Nama	Kota/Kabupaten
1.		
2.		
3.		
4.		

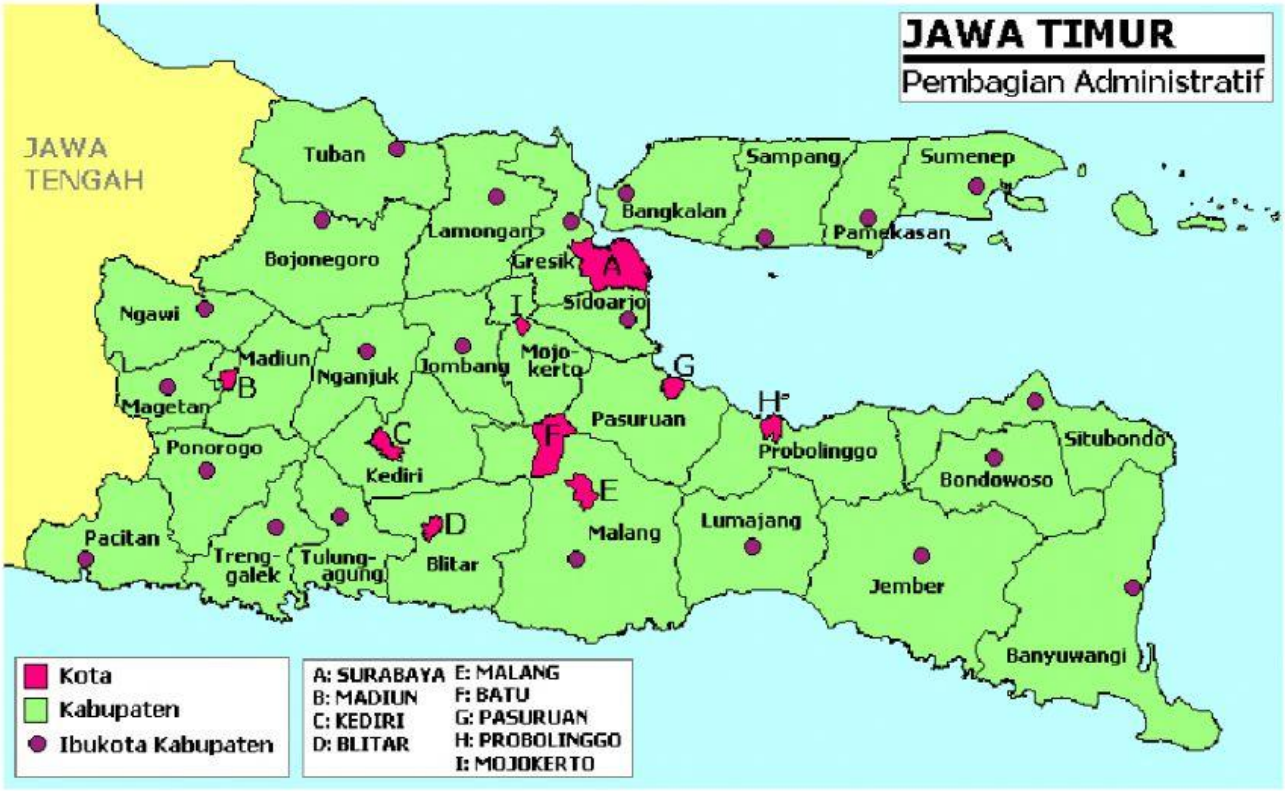

Komunikasikan/presentasikan laporan hasil penyelidikanmu di depan kelas !

LIVEWORKSHEETS