GARIS DAN SUDUT

Nama: _____

Kelas: _____

LIVEWORKSHEETS

A. Perhatikan video berkut ini.

B. Kerjakan soal dibawah ini.

DRAG AND DROP

1. Pindahkan kedudukan garis di samping ke kotak yang tepat

Garis Berhimpit

Garis Berpotongan

Garis Sejajar

LIVEWORKSHEETS

LISTENING

3. Dengarkan suaranya dan pilih benar atau salah

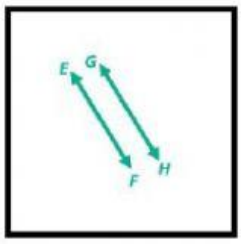

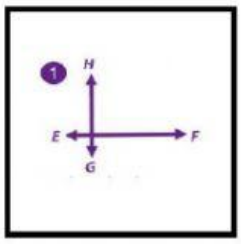

BENAR	SALAH	BENAR	SALAH

SPEAKING

4. Rekam suaramu untuk menyebutkan gambar berikut dengan cara menekan tombol rekam

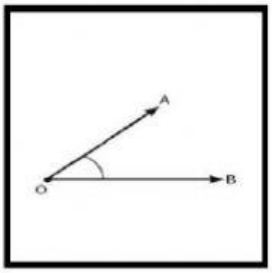

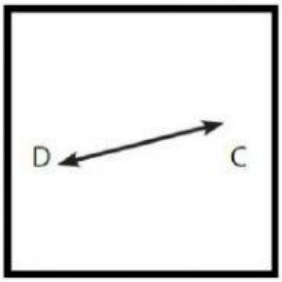

DROP DOWN

5. Apakah nama segitiga dibawah ini berdasarkan sisinya ?

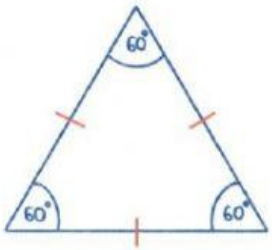

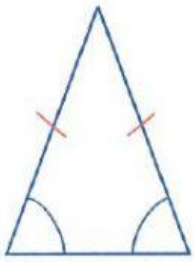

LIVEWORKSHEETS

PILIHAN GANDA

6. Jenis segitiga berdasarkan sudutnya yaitu sebagai berikut kecuali ...

A. Segitiga Sama Sisi

B. Segitiga Siku-siku

C. Segitiga Tumpul

D. Segitiga Lancip

JOIN ARROW

7. Pasangkan gambar sudut berikut dengan jenis sudut yang tepat

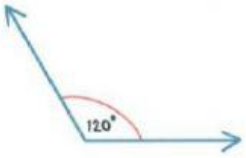

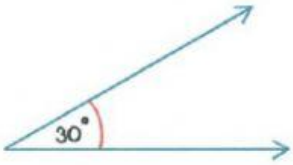

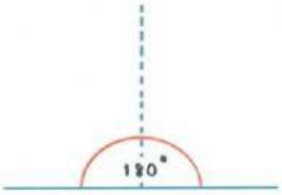

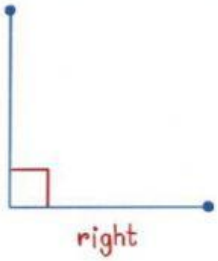

- Sudut lurus
- Sudut tumpul
- Sudut siku-siku
- Sudut lancip

LIVEWORKSHEETS

ISIAN SINGKAT

8. Diberikan tiga buah garis yaitu k,l, dan m serta sudut-sudut yang berada dilingkungannya. K dan l adalah sejajar sedangkan garis m memotong garis k dan l. Jika yang diketahui sudut P sebesar 125°.

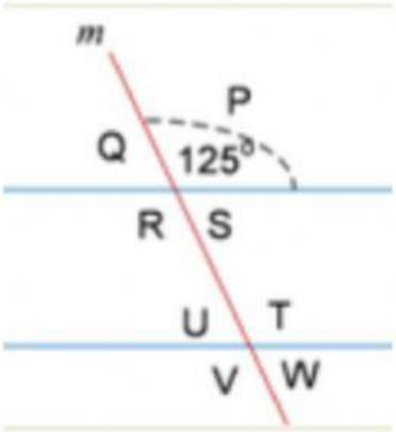

Tentukanlah :

a. Besar sudut Q adalah .....

b. Besar sudut W adalah .....

c. Besar sudut R adalah .....

CHECK BOX

9. Perhatikanlah keempat gambar dibawah ini, tentukanlah mana yang merupakan sudut

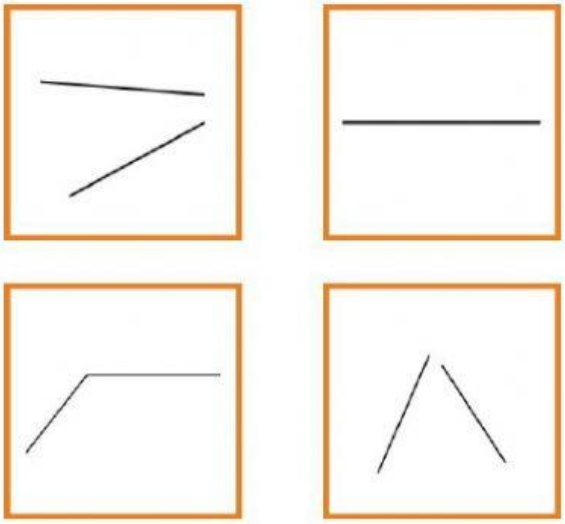

LIVEWORKSHEETS

MENCARI KATA

Bantu kami menemukan kata-kata tersembunyi dalam kumpulan huruf dibawah ini yuk :)

A	R	P	E	N	C	I	L	C	A	S	E
B	E	R	H	I	M	P	I	T	I	S	O
E	D	U	F	I	B	K	U	A	L	T	U
S	S	S	E	J	A	J	A	R	L	U	C
U	A	C	U	Y	O	A	Z	S	A	M	D
D	S	G	A	R	I	S	G	R	N	P	F
U	A	C	K	P	A	C	K	O	C	U	E
T	V	H	W	E	Q	Z	P	O	I	L	A
L	U	R	U	S	R	Y	U	M	P	T	R

- GARIS
- SUDUT
- SEJAJAR
- LANCIP
- TUMPUL
- BERHIMPIT
- LURUS

LIVEWORKSHEETS