## Ασκήσεις

**1. Γράψε το όνομα κάθε σχήματος και συμπλήρωσε τον πίνακα κάνοντας κλικ όπου πρέπει.**




_____ _____ _____ _____

| | 4 ορθές γωνίες | Απέναντι πλευρές ίσες | 4 ίσες πλευρές | Απέναντι πλευρές παράλληλες |
|---|---|---|---|---|
| Σχήμα Α | | | | |
| Σχήμα Β | | | | |
| Σχήμα Γ | | | | |
| Σχήμα Δ | | | | |

**2. Με τη βοήθεια των στοιχείων που σου δίνονται, υπολόγισε την περίμετρο και το εμβαδό των παρακάτω σχημάτων:**

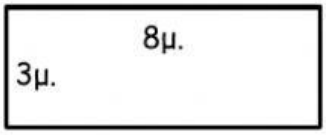

Π=_____ Π= _____

Ε= _____ Ε = _____

LIVEWORKSHEETS

3. Ο Θανάσης γεννήθηκε τον Απρίλιο του 2010. Ο αδερφός του, ο Γιάννης είναι 2 έτη και 6 μήνες μεγαλύτερός του. Πότε γεννήθηκε ο Γιάννης;

Λύση

_____

**Απάντηση:** Ο Γιάννης γεννήθηκε τον _____ του _____

4. Αντιστοιχίζω κάθε γεωμετρικό στερεό με την ονομασία του:

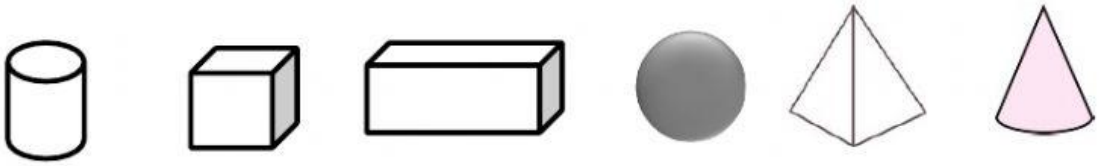

☐ ορθογώνιο παραλληλεπίπεδο ☐ κύλινδρος ☐ κύβος ☐ πυραμίδα ☐ σφαίρα ☐ κώνος

5. Δίνονται οι αριθμοί: 14.352.738, 2.415.180, 32.435.137, 6.728.417

Να βάλεις αυτούς τους αριθμούς από το μικρότερο στο μεγαλύτερο. (<)

< < <

LIVEWORKSHEETS

6. Η Ελένη, η Μαρία, ο Κώστας και ο Μιχάλης είναι όλοι μαθητές του 8ου Δημοτικού Σχολείου Καβάλας σε διαφορετικές τάξεις.

- Το κορίτσι που το όνομά του δεν αρχίζει από φωνήεν είναι η μικρότερη από τα παιδιά.
- Ο Κώστας είναι ο αδερφός της Μαρίας.
- Ο Μιχάλης πηγαίνει σε μια τάξη μεγαλύτερη από ότι ο Κώστας.
- Το μικρότερο από τα παιδιά πηγαίνει στη Γ΄τάξη.
- Ο αδερφός της Μαρίας πηγαίνει στη Δ' τάξη.
- Το παιδί που έμεινε του χρόνου θα πάει στο Γυμνάσιο.

Να χρησιμοποιήσεις τις παραπάνω πληροφορίες για να βρεις σε ποια τάξη πηγαίνει το κάθε παιδί.

| Μαθητές | Τάξεις |
|---|---|
| Ελένη | |
| Μαρία | |
| Κώστας | |
| Μιχάλης | |

7. Σε ποιον αριθμό η αξία του ψηφίου 7 είναι 7.000; Κάνε κλικ στο αντίστοιχο κουτάκι

Α. 735 Β. 1794 Γ. 37.982 Δ. 70.501

☐ ☐ ☐ ☐

# ΚΑΛΗ ΕΠΙΤΥΧΙΑ!!!

LIVEWORKSHEETS