Họ và tên:.....Lớp:.....

TUẦN 5

Bảng cộng (qua 10)

- Bài toán về thêm, bớt một số đơn vị

Bảng cộng (qua 10)

Bài 1. *Tính nhẩm:*

3 + 8 = …	7 + 4 = …	6 + 8 = …	9 + 5 = …
3 + 9 = …	5 + 8 = …	7 + 9 = …	5 + 9=

Bài 2. Số? (Theo mẫu)

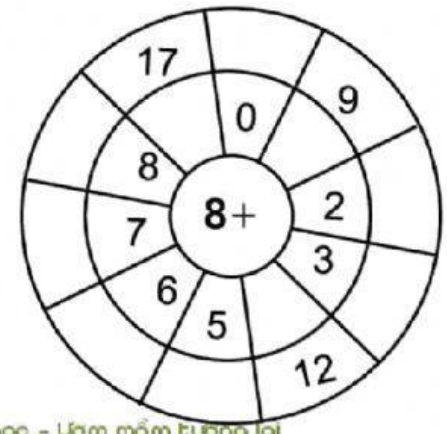

Thư viện tiểu học - Ươm mầm tương lai

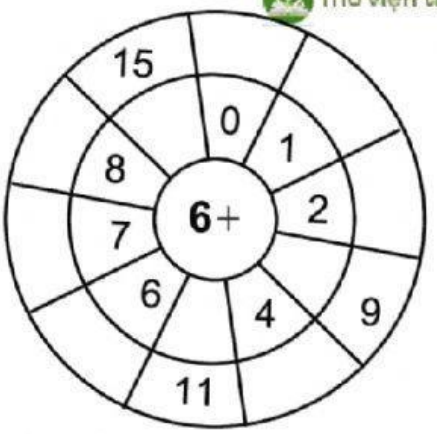

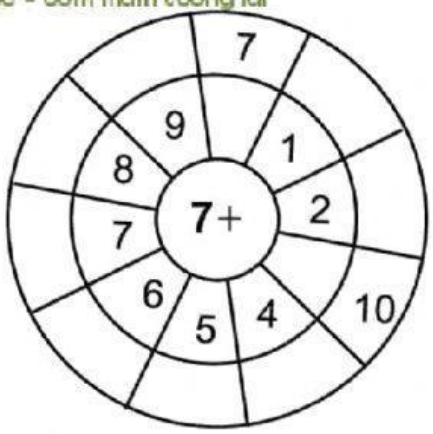

Bài 3. *Điền dấu >, <, = thích hợp vào chỗ trống:*

6 + 6 ◯ 11	8 + 7 ◯ 7 + 8	5 + 8 ◯ 6 + 8
5 + 7 ◯ 12	9 + 3 ◯ 7 + 7	2 + 9 ◯ 4 + 9

LIVEWORKSHEETS

Bài 4. *Số ?*

6 + 5 = 8 + …	6 + … = 7 + 8
7 + 8 = … + 7	… + 5 = 8 + 5
9 + 5 = … + 6	8 + … = 9 + 7

Bài 5*. Lúc đầu, Nam có 5 viên bi. Tú cho Nam 6 viên bi, Việt cho Nam 7 viên bi nữa. Hỏi:

a. Nam được Tú và Việt cho tất cả bao nhiêu viên bi?

b. Bây giờ Nam có tất cả bao nhiêu viên bi?

……
……
……
……
……
……
……
……

Bài 6. Hãy viết tất cả các số có hai chữ số:

a. Biết tổng hai chữ số của số đó bằng 11

……

b. Biết tổng hai chữ số của số đó bằng 13

……

……
……
……
……

LIVEWORKSHEETS