CÁC PHÂN TỬ SINH HỌC - CARBOHYDRATE

***Bài 1**: Gọi tên các phân tử đường bằng cách điền vào ô trống (chọn đáp án đúng):*

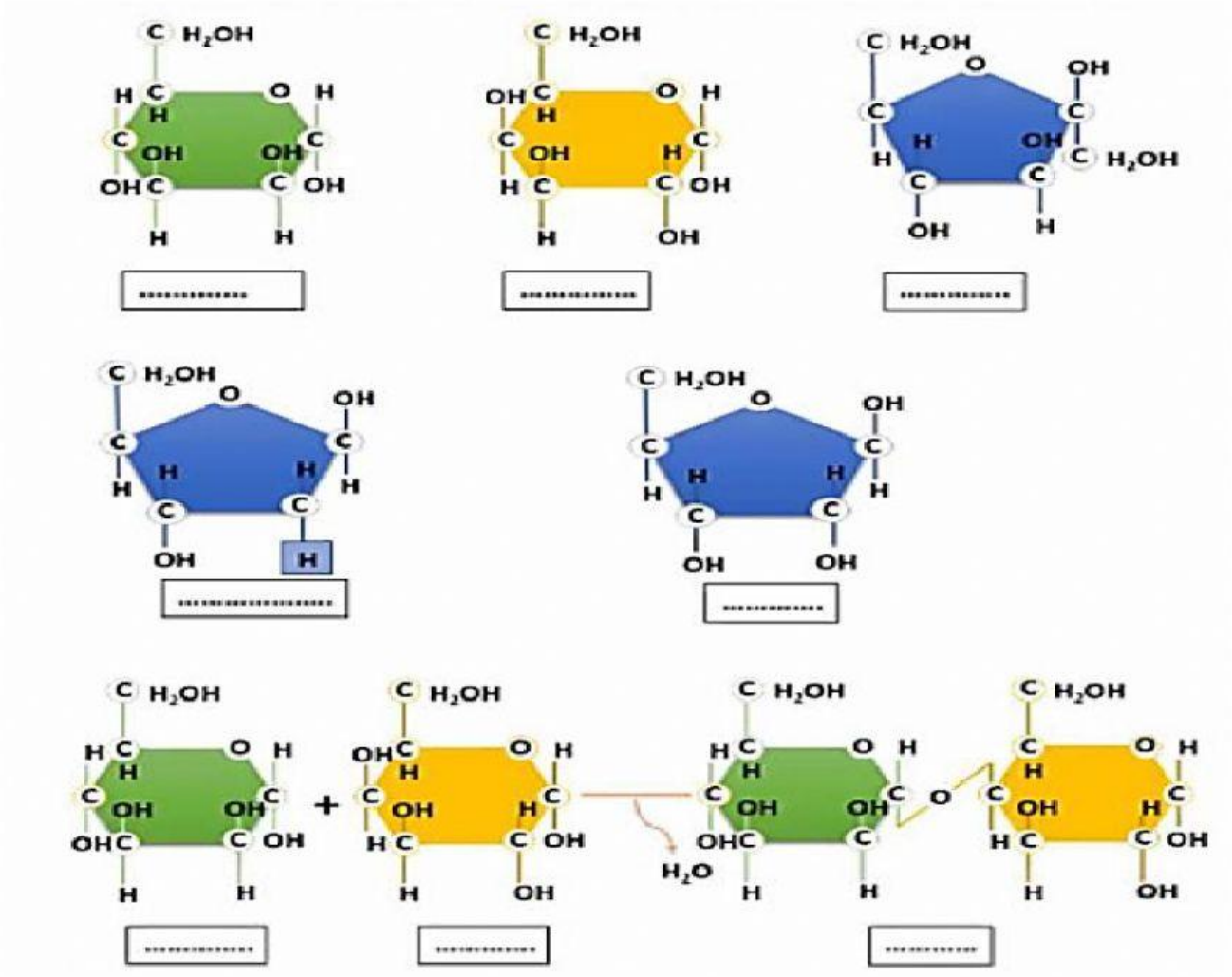

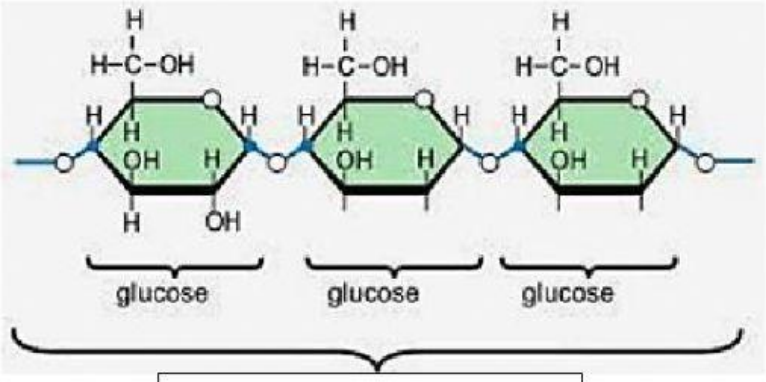

.....

***Bài 2**: Carbohydrate được cấu tạo từ các nguyên tố hóa học nào trong các nguyên tố sau? (kéo đặt lên đường kẻ)*

.....

C P H O K N

LIVEWORKSHEETS

Bài 3: Phân biệt các loại Carbohydrate bằng cách hoàn thành vào chỗ trống (chọn đáp án đúng):

 Monosaccharide	**Cấu tạo:** ..... **Đại diện:** ..... **Vai trò:** .....
 Disaccharide	Cấu tạo: ..... Đại diện: ..... Vai trò: .....
 **Polysaccharide**	Cấu tạo: ..... Đại diện: ..... Vai trò: .....
	Nguồn thực phẩm: .....

Bài 4: Nêu đặc điểm chung của đại phân tử Carbohydrate

Cấu tạo:

.....

.....

Chức năng:

.....

.....

.....

LIVEWORKSHEETS