Họ và tên:.....Lớp:.....

2 Luyện tập chung

Bài 1. *Điền số thích hợp vào chỗ chấm:*

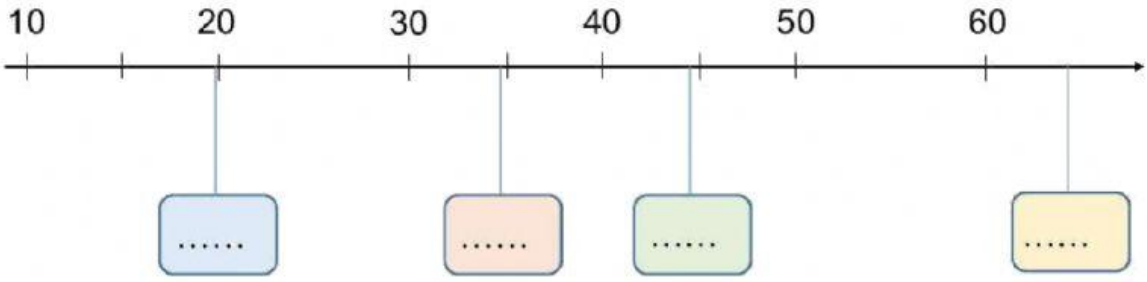

Bài 2. *Điền dấu thích hợp vào chỗ trống:*

26 + 3 ☐ 3 + 26	12 + 15 ☐ 23 + 6
27 – 12 ☐ 7 + 10	35 – 11 ☐ 24 + 10 – 4
14 + 34 ☐ 21 + 45	3 + 32 ☐ 39 – 2 – 3

Bài 3. *Số ?*

- Số liền sau số 60 là số: .....
- Số liền trước số 60 là số: .....
- Số tròn chục vừa bé hơn 35 vừa lớn hơn 26 là số: .....
- Số liền sau của số lớn nhất có hai chữ số là số: .....
- Số liền trước của số nhỏ nhất có hai chữ số là số: .....

Bài 4. *Đặt tính rồi tính:*

9 + 30	25 + 14	37 – 15	55 – 50	99 – 69
.....	.....	.....	.....	.....
.....	.....	.....	.....	.....
.....	.....	.....	.....	.....

Bài 5. *Số ?*

☐ —+ 36→ ☐ —– 2→ **67**



LIVEWORKSHEETS

Bài 6. Một sợi dây dài 78cm, cắt đi 18cm. Hỏi sợi dây còn lại dài bao nhiêu xăng-ti-mét?

.....

.....

.....

.....

Bài 7. Một cửa hàng buổi sáng bán 1 chục hộp bút, buổi chiều bán được 8 hộp bút . Hỏi cả hai buổi cửa hàng bán được bao nhiêu hộp bút?

.....

.....

.....

.....

Bài 8. Lấy tổng của 50 và số lớn nhất có một chữ số rồi trừ đi 10, kết quả là bao nhiêu?

.....

.....

.....

Bài 9. Tính tổng của số lớn nhất có một chữ số với số liền sau của số nhỏ nhất có một chữ số

.....

.....

.....



.....

.....

.....

.....



LIVEWORKSHEETS