PHÉP TRỪ

1. Hoàn thành các phép trừ sau.

356 – 3

= _____

571 – 7

= _____

638 – 5

= _____

179 – 9

= _____

2. Ước lượng rồi hoàn thành các phép trừ sau để tìm ra hiệu theo mẫu.

148 làm tròn đến hàng chục là 150
26 làm tròn đến hàng chục là 30
Ước lượng: 150 - 30 = 120

148 – 26 = 122

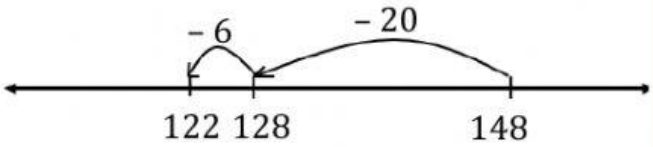

457 – 23 = _____

Ước lượng: 460 – _____ = _____

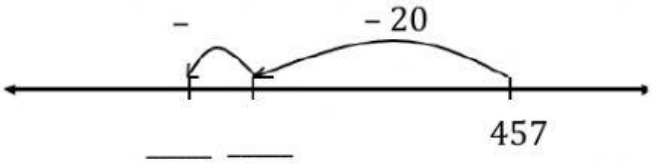

341 – 37 = _____

Ước lượng: 340 – _____ = _____

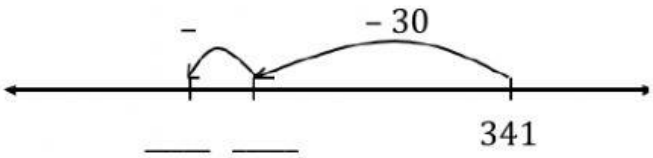

LIVEWORKSHEETS