LIVEWORKSHEETS

LEMBAR KERJA PESERTA DIDIK (LKPD)
KELAS 3
SD NEGERI 3 PIDPID

TEMA 1
PERTUMBUHAN DAN PERKEMBANGAN MAKHLUK HIDUP

SUBTEMA 1
CIRI-CIRI MAKHLUK HIDUP

MATA PELAJARAN :

SBDP, BAHASA INDONESIA, MATEMATIKA

NAMA :

KELAS :

NO. :

LIVEWORKSHEETS

LEMBAR KERJA PESERTA DIDIK

(LKPD 1)

JUDUL KEGIATAN

Ayo Bernyanyi (cicak – cicak di dinding)

TUJUAN KEGIATAN

-Siswa dapat mengidentifikasi bentuk pola irama sederhana dengan benar.

PETUNJUK MENGERJAKAN

1. Amati tanda yang ada pada syair lagu cicak – cicak di dinding.

Cicak di Dinding

Cipt. NN

Cicak – cicak di dinding

Diam – diam merayap

Datang seekor nyamuk

Hap ... lalu ditangkap

LIVEWORKSHEETS

LIVEWORKSHEETS

SOAL

1. Bagian mana dari lagu tersebut, yang menunjukkan ciri-ciri makhluk hidup !

2. Bagaimana rasanya jika sebuah lagu hanya memiliki pola bunyi panjang atau pendek saja? _____

LIVEWORKSHEETS

3. Buatlah 4 buah pola yang berbeda dengan menggunakan simbol bunyi panjang dan pendek!



Pola ke 1 :.....

.....

Pola ke 2 :.....

.....

Pola ke 3 :.....

.....

Pola ke 4 :.....

.....

.....

.....

.....

.....

.....



LIVEWORKSHEETS

LIVEWORKSHEETS

LEMBAR KERJA PESERTA DIDIK

(LKPD 2)

JUDUL KEGIATAN

Ciri – ciri makhluk hidup

TUJUAN KEGIATAN

1. Siswa dapat menyimpulkan ciri-ciri makhluk hidup dengan benar.

PETUNJUK MENGERJAKAN

1. Amati tayangan
2. Diskusikan ciri – ciri makhluk hidup dengan kelompok yang sudah ditentukan !
3. Berikan tanda cek list pada ciri- ciri makhluk hidup yang kamu anggap benar!

https://www.youtube.com/watch?v=JLmyi6NbSMQ

LIVEWORKSHEETS

LIVEWORKSHEETS

SOAL

1. Kegiatan Diskusi Kelompok
   Sebutkan ciri-ciri makhluk hidup!

.....
.....
.....
.....
.....
.....
.....
.....
.....
.....

2. **Berikanlah tandan cek list pada ciri-ciri makhluk hidup yang kamu anggap benar!**

No	CIRI-CIRI	TANDA
1	Membutuhkan makanan dan minuman	
2	Berkembang biak	
3	Sakit	
4	Bernafas	
5	Peka terhadap rangsang	

LIVEWORKSHEETS

LIVEWORKSHEETS

LEMBAR KERJA PESERTA DIDIK (LKPD 3)

JUDUL KEGIATAN

Lambang bilangan ribuan

TUJUAN KEGIATAN

1. Mencari pasangan nama dan lambang bilangan 1.000 sampai dengan 10.000
2. Mengurutkan bilangan

PETUNJUK MENGERJAKAN

1. Memasangkan nama dan lambang bilangan
2. Menyusun bilangan dari bilangan terkecil sampai terbesar.

LIVEWORKSHEETS

SOAL

1. Pasangkanlah nama dan lambang bilangan yang ada dibawah ini dengan cara menarik garis lurus ke kotak yang yang sesuai!

3.267	Enam ribu dua ratus tiga
4.215	Tiga ribu dua ratus enam puluh tujuh
6.203	delapan ribu lima belas
8.015	Empat Ribu duaratus lima belas



LIVEWORKSHEETS

LIVEWORKSHEETS

2. Urutkanlah bilangan berikut ini dari yang terkecil ke terbesar, dengan cara drag and drop (menarik sesuai urutan)

1. 5.250 3.250 1.250 2.250 4.250

2. 4.100 1.300 2.300 3.300 5.300

3. 1.100 2.250 5.400 4.200 3.050

LIVEWORKSHEETS