Nama : .....

Kelas : .....

TANTANGAN UNIT 3 (JARING BALOK)

Pilihlah jawaban yang tepat dengan mengklik kotak kosongnya!

1) Berapakah jumlah keseluruhan jaring-jaring balok?

24

34

44

54

2) Manakah yang bukan merupakan jaring-jaring kubus?

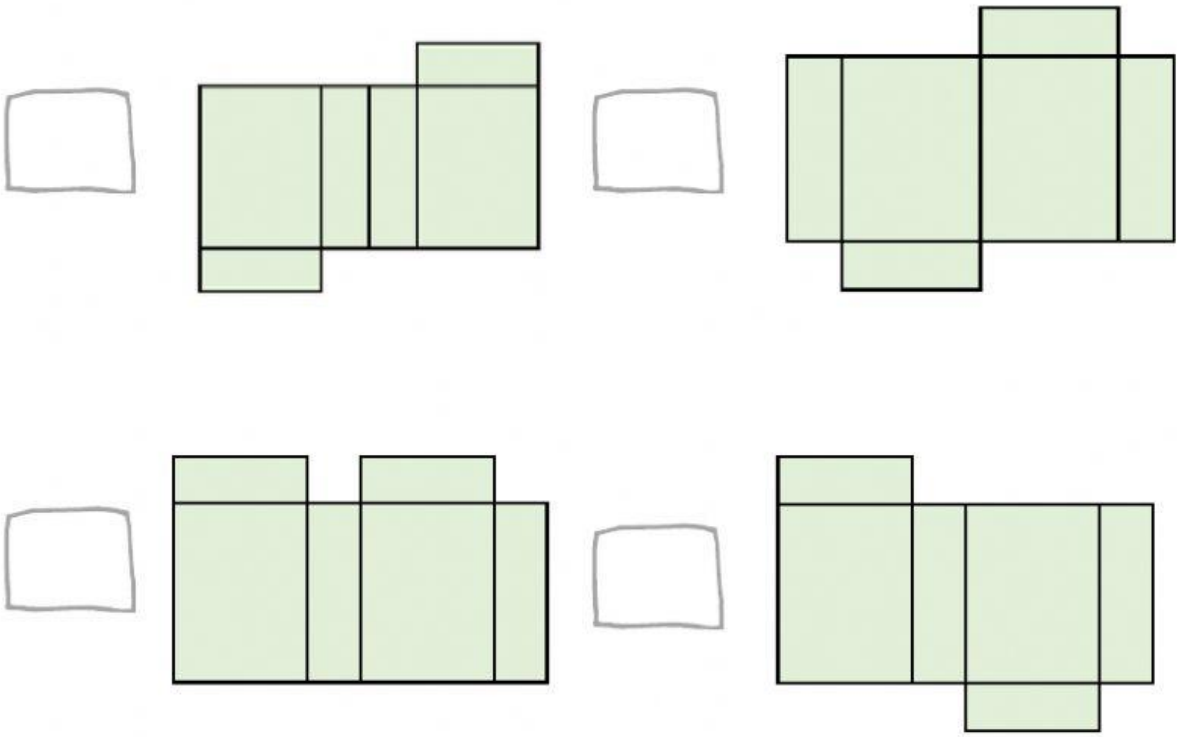

LIVEWORKSHEETS

Nama : .....

Kelas : .....

TANTANGAN UNIT 3 (JARING BALOK)

Isilah kotak kosong tersebut dengan tepat!

3) Gambar dibawah ini adalah balok OPQR.STUV. Jika daerah yang diarsir merupakan tutup balok, Berilah nama pada semua titik sudut berdasarkan jaring-jaring di bawah ini, serta tentukan nama titik sudut pada bagian kotak kosong!

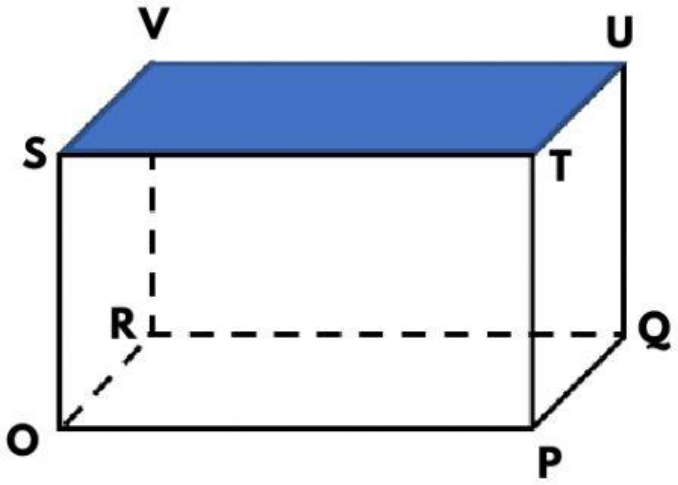

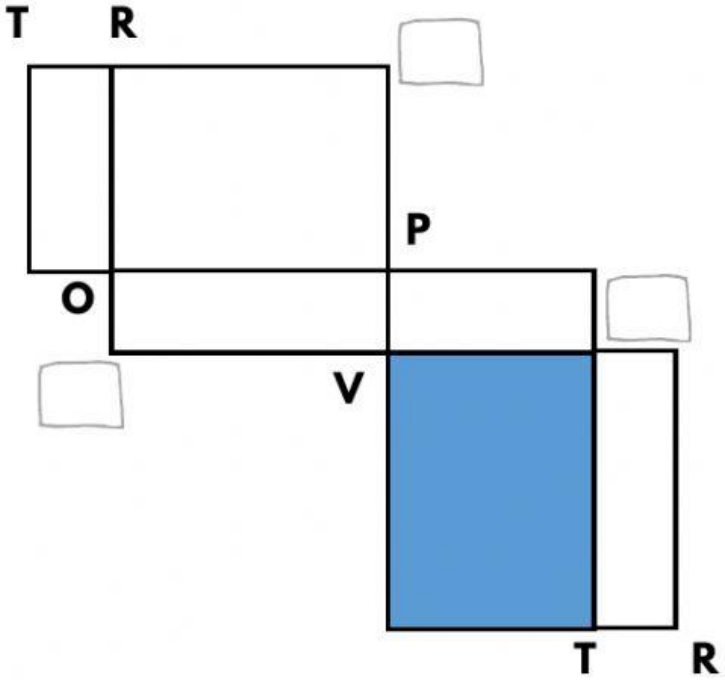

LIVEWORKSHEETS