Nama : .....

Kelas : .....

TANTANGAN UNIT 3 (JARING KUBUS)

Pilihlah jawaban yang tepat dengan mengklik kotak kosongnya!

1) Perhatikan jaring-jaring berikut ini, pasangan sisi manakah yang akan saling berhadapan? (Jawaban lebih dari satu)

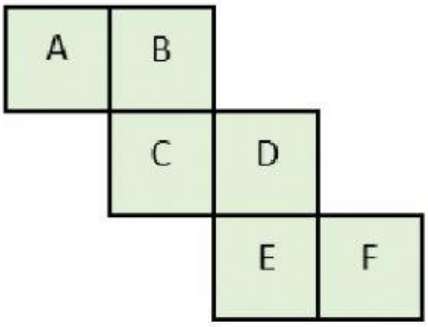

A & C

B & E

C & F

A & E

2) Manakah yang bukan merupakan jaring-jaring kubus?

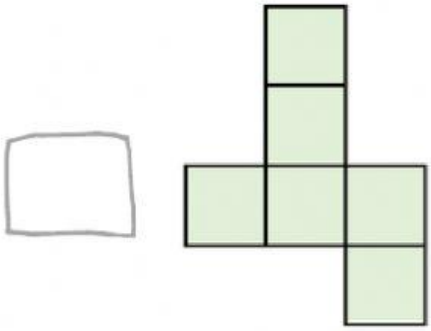

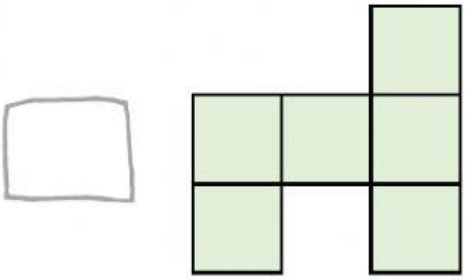

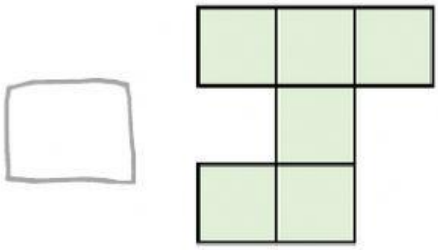

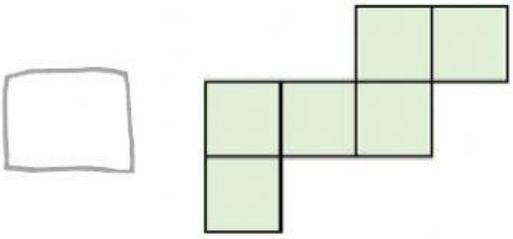

LIVEWORKSHEETS

Nama : .....

Kelas : .....

TANTANGAN UNIT 3 (JARING KUBUS)

Isilah kotak kosong tersebut dengan tepat!

3) Gambar dibawah ini adalah kubus ABCD.EFGH. Jika daerah yang diarsir merupakan alas kubus, Berilah nama pada semua titik sudut berdasarkan jaring-jaring di bawah ini, serta tentukan nama titik sudut pada bagian yang diberi nomor!

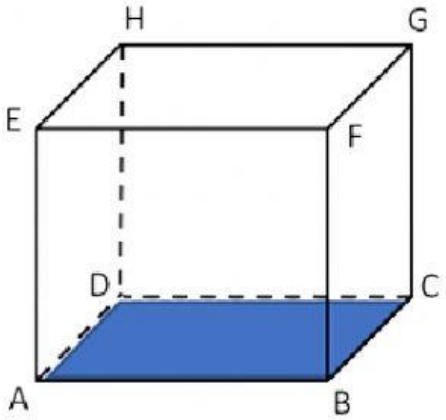

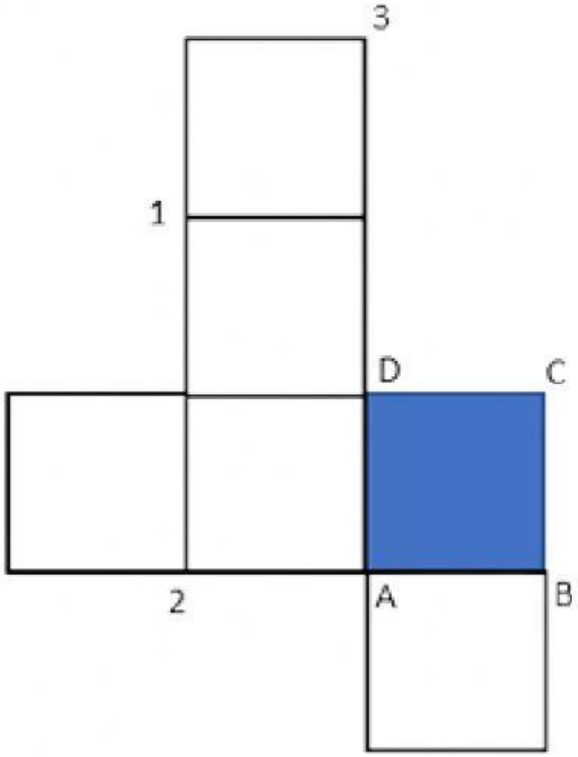

LIVEWORKSHEETS