В СВЕТА НА ЦВЕТЯТА

СЪБИРАНЕ НА 9 С ЕДНОЦИФРЕНО ЧИСЛО С ПРЕМИНАВАНЕ

/първа част/

1. Попълни и пресметни.

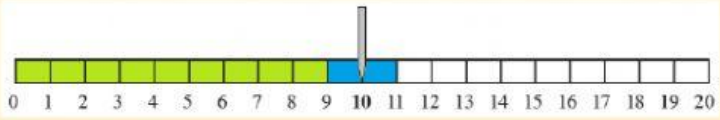

9 + 2 = 10 + ☐ = ☐

1 + ☐

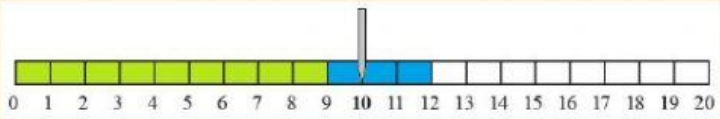

9 + 3 = 10 + ☐ = ☐

1 + ☐

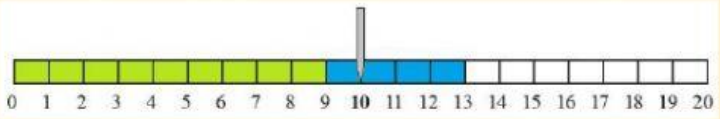

9 + 4 = 10 + ☐ = ☐

1 + ☐

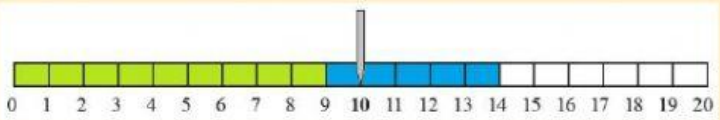

9 + 5 = 10 + ☐ = ☐

1 + ☐

2. Пресметни.

9 +

2 = ☐

3 = ☐

4 = ☐

5 = ☐

3. Отбележи верните сравнения.

9 + 2 < 15

14 < 9 + 5

9 + 3 > 12

13 = 9 + 4

4. Пресметни.

6 + 3 + 5 = ☐

2 + 7 + 2 = ☐

4 + 5 + 3 = ☐

8 + 1 + 4 = ☐

7 + 2 + 4 = ☐

5 + 4 + 5 = ☐

LIVEWORKSHEETS

5. Ани поставила във ваза 9 зюмбюла и 3 нарциса.
Колко цветя общо е поставила във вазата?

Решение:

Отговор: цветя

6. Ученици подарили на учителката си 9 жълти и 5 лилави минзухара.
Колко минзухара общо са ѝ подарили?

Решение:

Отговор: минзухара

7. Свържи.

19 ч. 11 ч. 15 ч. 8 ч.

LIVEWORKSHEETS