Reefaa School G4 | Science | Ms. Arwa Al Mussabi

Unit 3 Lesson 1

Map Earth's Feature خريطة اشكال الأرض

ST name: ..... G 4 \ .....

Q1-Put the number of correct answer near its meaning: ضع رقم الإجابة الصحيحة بجوار التعريف

1. Continent قارة
2. Abyssal plain سهل سحيق
3. Mid-ocean ridgeسلاسل جبال
4. Landform تضاريس
5. Rift valleyوادي سحيق
6. Trenchesخنادق
7. Seamountجبل بحري

(.....) Large landmass أرض كبيرة جدا

(.....) Mountain inside ocean. جبال في المحيط

(.....) Deepest part of ocean floor.أعمق منطقة في المحيط

(.....) Mountain ranges in ocean. سلاسل جبلية في المحيط

(.....) Flat area on deep ocean floor. أرض واسعة في قاع المحيط

(.....) Valley down on mid-ocean ridge وادي عميق في سلاسل جبلية في المحيط

(.....)Physical features on Earth's surface. اشكال طبيعية على الارض

Q3- Look at picture 1 & 2 then connect each on to its name:وصل الصورة للكلمة الصحيحة

Relief Mapخريطة مجسيه

Topographic Map
خريطة طبوغرافية

Q 4-Connect the word with its picture: وصل الكلمة للصورة الصحيحة



Latitudeدائرة عرض LINES go from **East to West**

Longitude خط طول **lines** go from **North to South**

Q 5-Put the number of correct answer near its meaning: ضع الرقم الصح بجوار التعريف

1-Plates لوح \ صفيحة

2-Plate boundaryحدود الصفائح

3-Volcanoes can form on.تتكون البراكين في

4-Volcanoes are caused by سبب البراكين

5-Lava of volcano after cold it turn to.

(.....) Place where two plates meet. مكان التقاء لوحين

(.....) Plates movementحركة الألواح

(.....) The ocean floor or land.قاع المحيط والأرض

(... .....) It will be Rocks صخور

(.....) Earth crust which broken into large pieces تحطم القشرة الأرضية الى قطع كبيرة

LIVEWORKSHEETS

Q 6- Put the number of correct answer near its meaning: ضع رقم الجواب الصح

1-Volcano

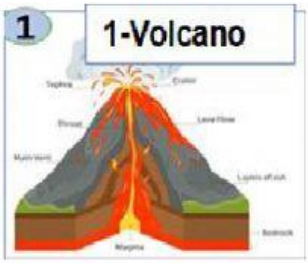

(……) Sudden moving of Earth's crust. حركة مفاجأة لقشرة الأرض

(……) An Opening on Earth's surface give melted rock and gases.
فتحة في سطح الأرض تُخرج صخور منصهرة وغازات

2- Earthquake

Q7- Put the number of correct answer in correct space: ضع رقم الجواب الصح

1- Near plate boundaries
بالقرب من حدود الصفائح

2- Not near plate boundaries
ليست بالقرب من حدود الصفائح

(……) Abyssal plains.سهل سحيق

(…….) Earthquakes, mountains and volcanoes. زلازل- جبال وبراكين

Q8- Choose correct answer: اختر الإجابة الصحيحة

1-Plateaus, valleys, canyons, and mountains are all examples of. ...هضبة وادي جبل جميعها امثلة على

a- Highlands b- Mantle areas c-Landforms d-Hydrosphere

2- Which shows the elevation of an area using contour lines?تُظهر الارتفاع باستخدام خطوط الكنتور

a-Mountains b- Faults c- Topographical d-Mapcartographer

3-For which landform would contour lines be closest together on a topographical map?
بالنسبة لأي شكل أرضي اذا كانت خطوط الكنتور مقاربة على الخريطة الطبوغرافية فهذا الشكل هو:

a- Sand dune b - Plateau c- Valley d- Plains

4-Look to picture then put correct latter near its name: انظر للصورة ثم ضع الحرف الصح بجوار اسمه

1-(…….) Seamount.جبل بحري

2-(……..) Trenches.خندق

3-(…….) Continent shelf.رف قاري

4-(……..) Continent Slope.منحدر قاري

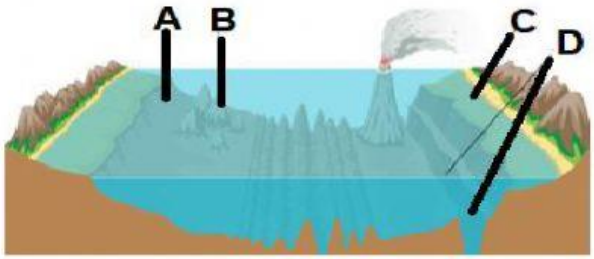

5-Select all of the ways maps of land and maps of the ocean floor could be similar.اختر كل المتشابهات في خرائط الأرض والمحيط

- [ ] Both show valleys.
- [ ] Both show plant life.
- [ ] Both show mountain range
- [ ] Both show earthquakes.
- [ ] Both show directions.

LIVEWORKSHEETS