

Lembar Kegiatan Peserta Didik

Nama :

Kelas :

Klasifikasi Jamur

1. Tuliskan ciri-ciri dari masing-masing divisi fungi dibawah ini!

Zygomycota	
Ascomycota	
Basidiomycota	
Deuteromycota	

2. Jodohkanlah pernyataan dan jawaban di bawah ini!

1. sel-sel penyusun tubuh jamur makroskopis memanjang membentuk benang	Spora
2. hifa bercabang-cabang membentuk jaringan-jaringan	Miselium
3. Alat perkembangbiakan jamur baik seksual maupun aseksual	Hifa

LIVEWORKSHEETS LIVEWORKSHEETS

3. Pasangkanlah masing-masing keterangan pada gambar dibawah ini!



Nama Divisi :

Nama Spesies :



Nama Divisi :

Nama Spesies :

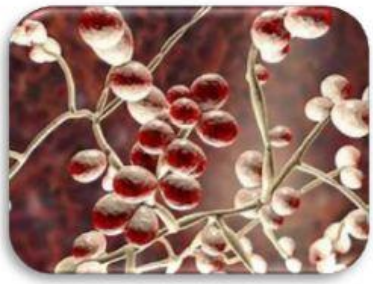

Nama Divisi :

Nama Spesies :



Nama Divisi :

Nama Spesies :

Zigomycota	Ascomycota	Basidiomycota	Deuteuromycota
Rhizopus sp.	*Saccharomyces* sp.	*Pleurotus* sp.	*Candida albicans*

LIVEWORKSHEETS LIVEWORKSHEETS

Simbiosis Jamur dengan Organisme Lain

4. Bacalah dan isilah pertanyaan di dibawah ini!



Gambar disamping adalah **Liken (lumut kerak)**, bukan lumut tetapi gabungan antara 2 macam organisme yang hidup bersimbiosis mutualisme, yaitu jamur dengan....



Gambar disamping adalah Mikoriza, merupakan bentuk simbiosis mutualisme antara jamur dengan .....

Peranan Jamur

5. Jodohkanlah peranan jamur yang menguntungkan dan merugikan dibawah ini!

Rhizopus oryzae	Untuk membuat kecap dan tauco
Saccharomyces cereviciae	Jamur penyebab keputihan pada wanita
Aspergillus wentii	Untuk membuat tempe
Candida albicans	Untuk membuat tape (peuyeum)

LIVEWORKSHEETS LIVEWORKSHEETS