Lembar Kerja Peserta Didik

Bangun Ruang Sisi Datar

Nama: _____

_____

_____

_____

Kelas:_____

Petunjuk Kerja

1. Kerjakan lembar kerja ini sesuai petunjuk di masing-masing soal.

Perhatikan gambar-gambar berikut dan pindahkan ke kolom di sebelah kanan dengan cara menekan kemudian menggeser sesuai dengan jenis bangun ruang yang kalian ketahui.

KUBUS
BALOK
PRISMA
LIMAS

LIVEWORKSHEETS

Unsur-unsur bangun Kubus

Klik Link berikut untuk melihat animasi bangun ruang sisi datar untuk mengidentifikasi unsur-unsurnya secara lebih detail.

a. Kubus : https://www.liveworksheets.com/fv3149041et
b. Balok : https://www.geogebra.org/m/zc2vhvy3
c. Prisma : http://bit.ly/EksplorasiLuasPermukaanPrisma
d. Limas : https://www.geogebra.org/m/tmkWZKaJ

Pasangkanlah label Rusuk, sisi, titik puncak, dan titik sudut di bawah ini sesuai dengan nama unsurnya dengan cara menarik garis ke huruf A, B, C atau D.

Rusuk

Sisi

Titik Puncak

Titik Sudut

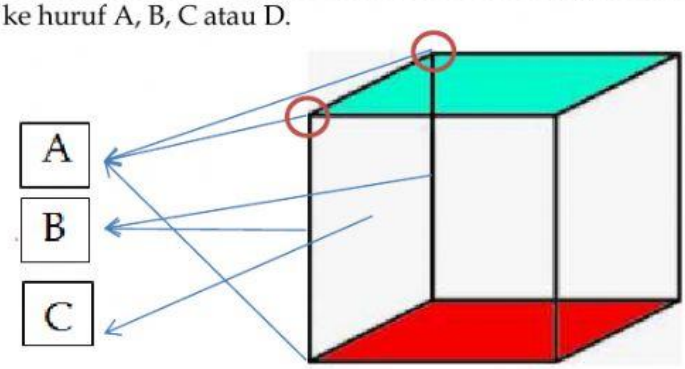

Jumlah Rusuk Kubus = ……..
Jumlah Sisi Kubus = ……..
Jumlah Titik Puncak = ……..
Jumlah Titik Sudut = ……..

Unsur-unsur bangun Balok

Rusuk

Sisi

Titik Puncak

Titik Sudut

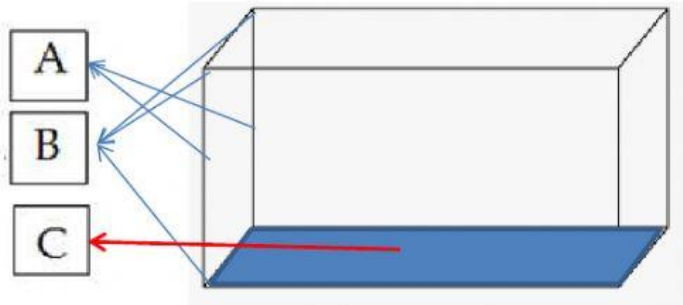

Jumlah Rusuk Balok = ……..
Jumlah Sisi Balok = ……..
Jumlah Titik Puncak = ……..
Jumlah Titik Sudut = ……..

Unsur-unsur bangun Prisma

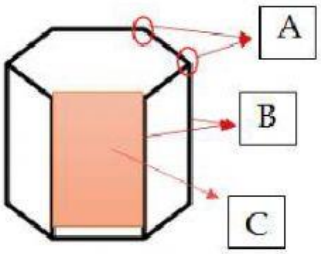

Rusuk

Sisi

Titik Puncak

Titik Sudut

Jumlah Rusuk Prisma = ……..
Jumlah Sisi Prisma = ……..
Jumlah Titik Puncak = ……..
Jumlah Titik Sudut = ……..

LIVEWORKSHEETS

Unsur-unsur bangun Limas

Jumlah Rusuk Limas = ……..
Jumlah Sisi Limas = ……..
Jumlah Titik Puncak = ……..
Jumlah Titik Sudut = ……..

Rusuk

Sisi

Titik Puncak

Titik Sudut

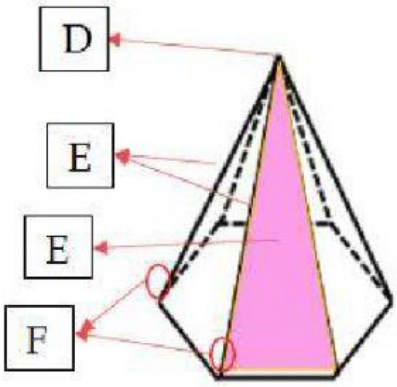

LIVEWORKSHEETS